4 교시

영역 ( )

		수험번호						2				

1. 경제 문제와 관련하여 밑줄 친 ㉠ ~ ㉣에 대한 옳은 설명을 <보기>에서 고른 것은?

> 갑국은 인구 증가와 심각한 병충해로 ㉠쌀 가격이 폭등하였다. 이에 농민들은 정부에 ㉡병충해에 강하고 생산량을 획기적으로 늘릴 수 있는 신품종 개발을 요구하였다. 정부는 농민들의 요구대로 신품종을 개발하였고, 아울러 생산성을 높일 수 있는 ㉢신농법 개발 및 기계화에 성공하였다. 그리고 신농법 개발과 농업 기계화에 기여한 ○○연구소 연구원들에게 ㉣특별 상여금을 지급하였다.

<보 기>

ㄱ. ㉠은 쌀의 희소성이 커진 결과이다.
ㄴ. ㉡은 생산물의 종류를 결정하는 문제이다.
ㄷ. ㉢은 효율성보다 형평성이 요구된다.
ㄹ. ㉣은 '어떻게 생산할 것인가?'의 문제이다.

① ㄱ, ㄴ ② ㄱ, ㄷ ③ ㄴ, ㄷ ④ ㄴ, ㄹ ⑤ ㄷ, ㄹ

2. 표는 경제적 유인의 유형을 나타낸다. 이에 대한 옳은 설명만을 <보기>에서 있는 대로 고른 것은?

	(가)	(나)
의미	경제적 유인의 대상자에게 이익으로 작용	경제적 유인의 대상자에게 손해(비용)로 작용
사례	㉠	㉡

<보 기>

ㄱ. (가)는 경제적 행동이 강화되도록 유도한다.
ㄴ. 시장 가격 상승은 수요자에게 (나)로 작용한다.
ㄷ. ㉠에는 '전력 요금 누진제'가 들어갈 수 있다.
ㄹ. ㉡에는 '쓰레기 종량제 위반에 대한 과태료 부과'가 들어갈 수 있다.

① ㄱ, ㄴ ② ㄱ, ㄷ ③ ㄷ, ㄹ
④ ㄱ, ㄴ, ㄹ ⑤ ㄴ, ㄷ, ㄹ

3. 다음 글을 근거로 한 주장으로 가장 적절한 것은?

> A사는 한 켤레에 150달러인 운동화를 생산하면서 저개발국 어린이들을 노동자로 고용하였다. 그런데 그들에게 하루 14시간 노동에 1달러도 채 안 되는 일당을 지급했다는 사실이 2000년대 초 언론에 폭로되어 구설수에 오른 바 있다. 최근에도 ○○지에 A사 로고가 선명한 축구공에 바느질하는 어린이 노동자의 사진이 실리자 소비자들은 상품 불매 운동에 나섰다.

① 기업은 생산성 향상을 위해 노력해야 한다.
② 기업은 기술 혁신을 통해 이윤을 추구해야 한다.
③ 기업은 새로운 일자리 창출을 위해 노력해야 한다.
④ 기업은 생산비 절감을 위해 해외에 진출해야 한다.
⑤ 기업은 의사 결정 시 사회적 책임과 윤리를 고려해야 한다.

4. 그림은 X재와 Y재만을 생산하는 갑국과 을국의 생산 가능 곡선이다. 이에 대한 분석으로 옳은 것은? (단, 생산 가능 곡선은 직선이다.) [3점]

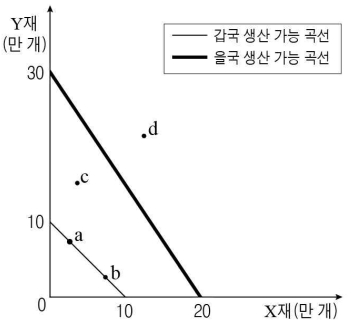

① 갑국의 X재 1단위 추가 생산의 기회비용은 a점보다 b점에서 크다.
② 갑국의 Y재 생산 기술이 향상될 경우 c점을 생산할 수 있다.
③ 을국에게 a ~ c점 모두 효율적인 생산점이다.
④ 갑국은 을국과 달리 c점을 생산할 수 있다.
⑤ 생산 요소가 증가할 경우 갑국은 을국과 달리 d점을 생산할 수 없다.

5. 다음 자료에 대한 분석으로 옳은 것은? [3점]

> 그림은 갑과 을 두 사람만 존재하는 경제에서 동일한 시간의 노동만 투입해 최대로 생산 가능한 X재, Y재 생산량에 대한 두 사람의 생산 비율을 나타낸다. 갑과 을은 X재와 Y재 두 재화만을 각각 생산하고, 비교우위 재화를 특화하여 이익이 발생할 경우에만 교환한다. 두 사람의 생산 가능 곡선은 직선이다.

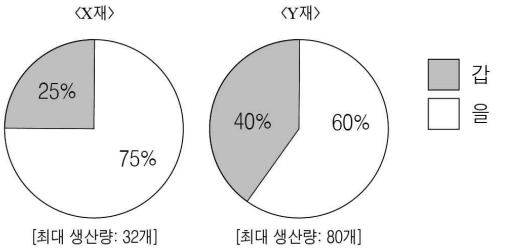

① 갑은 X재 생산에 절대 우위를 가진다.
② 갑의 X재 1개 생산의 기회비용은 Y재 0.25개이다.
③ 을의 Y재 최대 생산량은 32개이다.
④ 을은 Y재 생산에 비교 우위를 가진다.
⑤ X재와 Y재의 교환 조건이 1:3이라면 두 사람은 교환에 응할 것이다.

6. X ~ Z 대한 옳은 설명을 <보기>에서 고른 것은? (단, Y재와 Z재는 X재의 연관재이고, X~Z재 모두 수요와 공급의 법칙을 따른다.)

◦ X재의 가격이 상승하자 Y재 수요가 감소했다.
◦ X재의 가격이 상승하자 Z재 수요가 증가했다.
◦ 가계 소득이 증가하자 Y재 수요가 감소하고, Z재 수요가 증가했다.

<보 기>

ㄱ. X재와 Y재는 함께 사용할 때 효용이 더 커진다.
ㄴ. X재와 Z재는 용도가 비슷하여 서로 경쟁 관계에 있다.
ㄷ. Y재와 Z재는 서로 보완재 관계에 있다.
ㄹ. Y재는 정상재이고, Z재는 열등재이다.

① ㄱ, ㄴ ② ㄱ, ㄷ ③ ㄴ, ㄷ ④ ㄴ, ㄹ ⑤ ㄷ, ㄹ

7. 다음 자료의 A ~ C재 수요의 가격 탄력성으로 옳은 것은?

갑 기업은 총판매 수입을 증가시키기 위해 A ~ C재 가격을 변경하였다. 표는 재화별 가격 변경에 따른 각각의 판매 수입 변화를 나타낸다.

	가격	판매 수입
A재	5% 인상	3% 증가
B재	5% 인하	3% 증가
C재	3% 인상	3% 증가

	A재	B재	C재
①	탄력적	비탄력적	단위 탄력적
②	탄력적	완전 비탄력적	단위 탄력적
③	비탄력적	탄력적	단위 탄력적
④	비탄력적	탄력적	완전 비탄력적
⑤	단위 탄력적	비탄력적	완전 비탄력적

8. 교사의 질문에 대한 학생의 답변으로 옳은 것은?

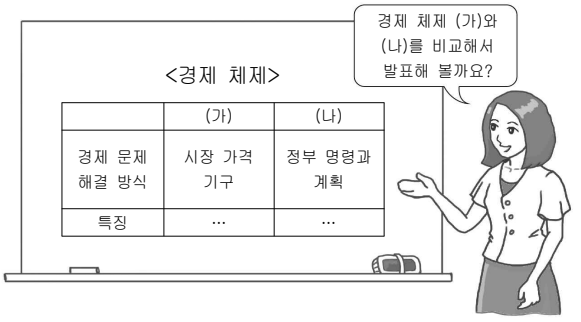

① 갑 : (가)는 (나)에 비해 노동 생산성이 낮습니다.
② 을 : (가)는 (나)에 비해 사적 이익 추구 활동을 중시합니다.
③ 병 : (가)는 (나)에 비해 소득 분배의 형평성을 추구합니다.
④ 정 : (나)는 (가)에 비해 자원이 효율적으로 배분됩니다.
⑤ 무 : (나)는 (가)와 달리 경제 주체 간의 자유 경쟁을 보장합니다.

9. 그림은 GDP와 GNP의 관계를 나타낸다. (가) ~ (다)에 대한 설명으로 옳지 않은 것은? [3점]

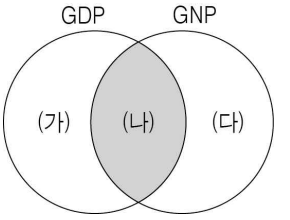

① 갑국에서 활약하는 우리나라 국적의 축구 선수가 받은 연봉은 갑국의 (가)에 포함된다.
② 우리나라에서 활약하는 을국 국적의 농구 선수에게 지급된 연봉은 우리나라의 (가)에 포함된다.
③ 병국 국민이 자국에서 벌어들인 소득은 병국의 (나)에 포함된다.
④ 우리나라 국적의 영화배우가 정국에서 받은 출연료는 정국의 (다)에 포함된다.
⑤ 무국 국적의 노동자가 우리나라에서 벌어들인 소득은 무국의 (다)에 포함된다.

10. 다음 자료에 대한 옳은 분석을 <보기>에서 고른 것은? [3점]

그림은 X재와 Y재의 소비량에 따른 갑의 만족감을 나타낸다.

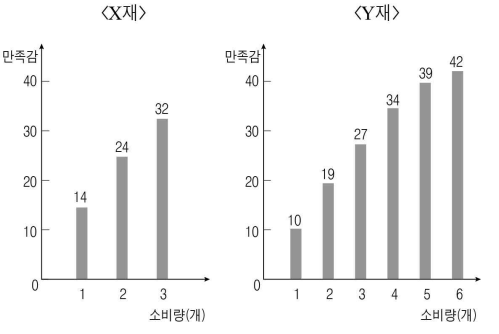

갑은 용돈 6,000원을 모두 사용하여 X재와 Y재를 구입한다. X재는 2,000원이고, Y재는 1,000원이다.

<보 기>

ㄱ. X재 2개, Y재 2개를 소비하는 것이 합리적이다.
ㄴ. 6,000원으로 얻을 수 있는 최대 만족감은 48이 된다.
ㄷ. X재와 Y재 모두 소비량을 1개씩 늘릴 때마다 추가되는 만족감은 점차 감소한다.
ㄹ. 용돈이 6,000원에서 3,000원으로 줄어들 경우 X재 1개, Y재 1개를 소비하는 것이 합리적이다.

① ㄱ, ㄴ ② ㄱ, ㄷ ③ ㄴ, ㄷ ④ ㄴ, ㄹ ⑤ ㄷ, ㄹ

11. 자료에 대한 옳은 분석만을 <보기>에서 있는 대로 고른 것은? [3점]

> 고랭지 배추를 재배하는 갑은 올해 1,000만 원의 비용을 들여 배추 2,000포기를 생산했다. 그런데 지난해 가을 포기당 1만 원이었던 배추가 올해는 포기당 1,000원으로 폭락하였다. 갑은 수확 비용 300만 원 때문에 수확을 포기할지 고민 중이다. (단, 배추 생산에 들어간 비용은 회수할 수 없다.)

<보 기>

ㄱ. 매몰 비용은 1,000만 원이다.
ㄴ. 수확의 기회비용은 100만 원이다.
ㄷ. 수확을 포기하는 것이 합리적 선택이다.
ㄹ. 수확할 경우 발생하는 순편익은 200만 원이다.

① ㄱ, ㄴ ② ㄱ, ㄷ ③ ㄷ, ㄹ
④ ㄱ, ㄴ, ㄹ ⑤ ㄴ, ㄷ, ㄹ

12. 그림은 X재와 Y재 시장을 나타낸다. 이에 대한 옳은 분석을 <보기>에서 고른 것은? (단, 두 재화의 수요와 공급 곡선은 좌우 평행 이동만 가능하다.) [3점]

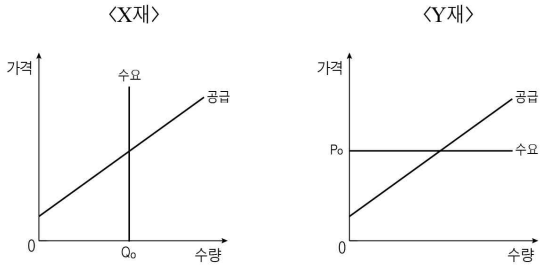

<보 기>

ㄱ. X재의 수요가 감소하면 X재 생산자 잉여는 감소한다.
ㄴ. X재의 공급이 감소해도 X재 생산자 잉여는 변함이 없다.
ㄷ. Y재의 공급이 감소하면 Y재 생산자 잉여는 증가한다.
ㄹ. Y재의 공급이 증가하면 Y재 소비자 잉여는 감소한다.

① ㄱ, ㄴ ② ㄱ, ㄷ ③ ㄴ, ㄷ ④ ㄴ, ㄹ ⑤ ㄷ, ㄹ

13. (가), (나) 경제 개념에 대한 설명으로 옳은 것은?

> (가) 생산에서 한 경제 주체가 제3자에게 의도하지 않은 이익을 주고도 그에 대한 대가를 받지 못하는 현상이다.
> (나) 소비에서 한 경제 주체가 제3자에게 의도하지 않은 손해를 입히고도 그에 대한 대가를 주지 않은 현상이다.

① (가)는 외부 불경제를 의미한다.
② (가)는 사회적 비용이 사적 비용보다 크다.
③ (나)는 사적 편익이 사회적 편익보다 작다.
④ (나)는 사회적 최적 수준보다 과다 소비된다.
⑤ (나)는 (가)와 달리 시장 실패에 해당한다.

14. 다음 자료에 대한 분석으로 옳은 것은? [3점]

> 그림은 갑국의 A, B시기 소득세 부과 방식을 나타낸다.

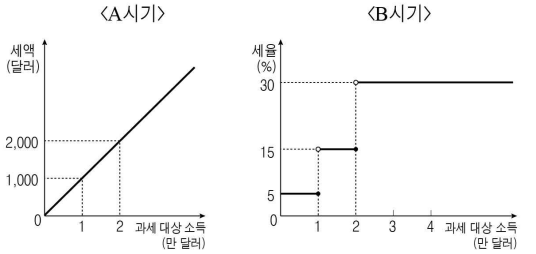

> B시기는 과세 대상 소득 구간에 따라 다른 세율을 적용한다. 예를 들어, 과세 대상 소득이 2만 5천 달러인 경우, 1만 달러 이하 구간에 해당하는 1만 달러는 5%, 1만 달러 초과 2만 달러 이하 구간에 해당하는 1만 달러는 15%, 나머지 5천 달러는 30%의 세율을 적용한다.

① A시기에는 누진세율이 적용된다.
② 과세 대상 소득이 4만 달러인 경우 B시기의 소득세는 8천 달러이다.
③ A시기의 소득세 부과 방식은 B시기보다 소득 재분배 효과가 크다.
④ 과세 대상 소득이 2만 달러인 경우 A시기의 소득세는 B시기보다 많다.
⑤ B시기의 소득세 부과 방식은 A시기와 달리 조세 부담의 역진성이 나타난다.

15. 다음 자료에 대한 옳은 분석을 <보기>에서 고른 것은?

<보 기>

ㄱ. 갑의 해결책은 목초지 이용 시 무임승차 문제를 발생시킨다.
ㄴ. 을의 해결책에 따르면 목초지의 경합성이 사라진다.
ㄷ. 갑과 을의 해결책에 따르면 목초지에 배제성이 나타난다.
ㄹ. ㉠의 목초지는 경합성은 있지만, 배제성은 없다.

① ㄱ, ㄴ ② ㄱ, ㄷ ③ ㄴ, ㄷ ④ ㄴ, ㄹ ⑤ ㄷ, ㄹ

16. 갑국 국민 경제 주체 사이의 화폐 흐름을 나타낸다. 이에 대한 설명으로 옳은 것은?

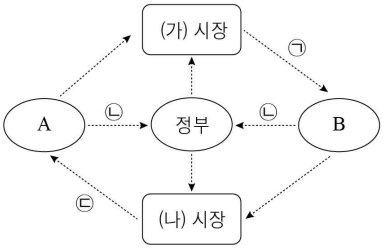

① ㉠의 증가는 ㉢의 감소 요인이다.
② ㉡의 증가는 A와 B의 수요 증가 요인이다.
③ (가) 시장이 생산 요소 시장이라면 임금, 지대, 이자는 ㉠에 포함된다.
④ A가 가계라면 A는 (가) 시장의 공급자이다.
⑤ B가 기업이라면 (나) 시장에서는 재화와 서비스가 거래된다.

17. (가), (나)에 해당하는 정부의 경제적 역할을 <보기>에서 찾아 바르게 연결한 것은?

(가) 정부는 경제를 활성화시키기 위해 재정 지출을 늘리고, 조세 수입을 줄이기로 하였다.
(나) 정부는 오염물질 배출량을 줄이기 위해 규정된 오염물질 배출량을 초과하는 기업에게 두 배의 세금을 부과하기로 하였다.

<보 기>
ㄱ. 소득 재분배 ㄴ. 경기 변동 조절
ㄷ. 시장 경쟁 촉진 ㄹ. 외부 효과 문제 개선

	(가)	(나)		(가)	(나)
①	ㄱ	ㄴ	②	ㄴ	ㄷ
③	ㄴ	ㄹ	④	ㄷ	ㄱ
⑤	ㄷ	ㄹ			

18. 표에 대한 옳은 분석을 <보기>에서 고른 것은? (단, 기준 연도는 2014년이다.) [3점]

	갑국		을국	
	2014년	2015년	2014년	2015년
경제 성장률 (%)	5	5	5	0
명목 GDP (억 달러)	100	120	100	150

<보 기>
ㄱ. 2014년 실질 GDP는 갑국과 을국이 같다.
ㄴ. 2014년 1인당 실질 GDP는 을국이 갑국보다 크다.
ㄷ. 2015년의 실질 GDP는 갑국이 을국보다 5억 달러 많다.
ㄹ. 갑국과 달리 을국의 2015년 실질 GDP는 전년보다 감소하였다.

① ㄱ, ㄴ ② ㄱ, ㄷ ③ ㄴ, ㄷ ④ ㄴ, ㄹ ⑤ ㄷ, ㄹ

19. 그림은 X재 시장 균형점(E)의 변동을 나타낸다. 이에 대한 옳은 추론을 <보기>에서 고른 것은? [3점]

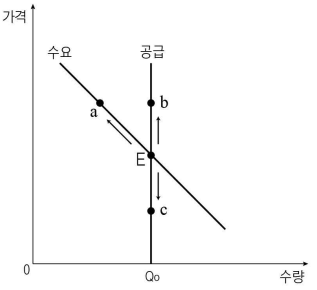

<보 기>
ㄱ. X재의 가격이 하락하면 a로 이동할 수 있다.
ㄴ. X재의 대체재 가격이 상승하면 b로 이동할 수 있다.
ㄷ. X재에 대한 선호도가 증가하면 c로 이동할 수 있다.
ㄹ. X재의 보완재 가격이 상승하면 c로 이동할 수 있다.

① ㄱ, ㄴ ② ㄱ, ㄷ ③ ㄴ, ㄷ ④ ㄴ, ㄹ ⑤ ㄷ, ㄹ

20. 다음 자료에 대한 옳은 분석 및 추론을 <보기>에서 고른 것은? [3점]

그림은 정부가 임대 주택 시장에서 임대료의 최고 가격을 P_1로 설정하는 정책을 장기간 실시했을 때, 시장이 변화할 수 있는 상황을 가정하여 나타낸 것이다. D는 단기 수요 곡선, S는 단기 공급 곡선이다.

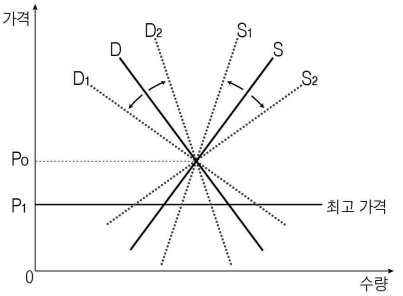

<보 기>
ㄱ. 단기보다 장기에서 거래량이 증가할 것이다.
ㄴ. 단기보다 장기에서 초과수요가 증가할 것이다.
ㄷ. 장기적인 수요 곡선은 D_1으로 변화할 것이다.
ㄹ. 장기적인 공급 곡선은 S_1으로 변화할 것이다.

① ㄱ, ㄴ ② ㄱ, ㄷ ③ ㄴ, ㄷ ④ ㄴ, ㄹ ⑤ ㄷ, ㄹ

* 사항
○ 답안지의 해당란에 필요한 내용을 정확히 기입(표기)했는지 확인하시오.