2009학년도 대학수학능력시험 9월 모의평가 문제지

제 4 교시

직업탐구 영역(상업경제)

성명		수험 번호	

○ 자신이 선택한 과목의 문제지인지 확인하시오.
○ 문제지의 해당란에 성명과 수험 번호를 정확히 쓰시오.
○ 답안지의 해당란에 성명과 수험 번호를 쓰고, 또 수험 번호와 답을 정확히 표시하시오.
○ 선택한 과목 순서대로 문제를 풀고, 답은 답안지의 '제1선택'란부터 차례대로 표시하시오.
○ 문항에 따라 배점이 다르니, 각 물음의 끝에 표시된 배점을 참고하시오. 3점 문항에만 점수가 표시되어 있습니다. 점수 표시가 없는 문항은 모두 2점입니다.

1. 다음 대화에 나타난 무형 재화에 대한 설명으로 옳은 것은?

① 창작물에 대한 전용권이다.
② 재산적 가치가 있는 유가 증권이다.
③ 권리금의 형태로 거래되는 영업권이다.
④ 특허청에 등록해야 권리를 인정받는다.
⑤ 일정 기간마다 갱신해야 권리를 인정받는다.

2. 다음과 같은 경제 상황이 지속될 때, 한국은행이 취해야 할 통화 신용 정책으로 적절한 것을 〈보기〉에서 고른 것은?

○ 물가 상승이 지속되고 있다.
○ 가계 대출이 급증하고 있다.
○ 경기가 과열되고, 부동산 가격이 급등하고 있다.

〈보 기〉

ㄱ. 재할인율을 인상한다.
ㄴ. 기준 금리를 인하한다.
ㄷ. 지급 준비율을 인상한다.
ㄹ. 통화 안정 증권을 매입한다.

① ㄱ, ㄴ ② ㄱ, ㄷ ③ ㄴ, ㄷ
④ ㄴ, ㄹ ⑤ ㄷ, ㄹ

3. 다음은 증권 회사 체험 학습 보고서의 일부이다. 밑줄 친 ㉮~㉱에 대한 설명으로 옳은 것을 〈보기〉에서 고른 것은? [3점]

증권 회사 체험 학습 보고서

1. 주식 매매 주문과 거래
증권에 투자하려는 사람들은 증권 회사에 가서 주식 매매 주문서를 ㉮증권 매매 담당자에게 제출한다. 이 주문서에 기재된 내용들은 ㉯증권선물거래소로 전송되어 실시간으로 거래가 이루어지게 된다.
2. 주식 매매 체결 순위
㉰주식 매매 주문의 체결은 가격, 시간, 수량 우선 원칙에 따라 이루어진다.
3. 주식 거래 수수료
증권 회사는 ㉱주식 거래 수수료를 거래 쌍방으로부터 받는다.

〈보 기〉

ㄱ. ㉮는 자영 상인에 속한다.
ㄴ. ㉯는 조직적 시장에 속한다.
ㄷ. ㉰는 경매매 방식으로 이루어진다.
ㄹ. ㉱는 매매 차익을 기준으로 결정된다.

① ㄱ, ㄴ ② ㄱ, ㄷ ③ ㄴ, ㄷ
④ ㄴ, ㄹ ⑤ ㄷ, ㄹ

4. 다음은 온실 가스 라벨링 제도에 대한 기사이다. 이를 시행했을 때 나타날 수 있는 현상으로 적절한 것만을 〈보기〉에서 있는 대로 고른 것은?

온실 가스 라벨링 어떻게 이루어지나

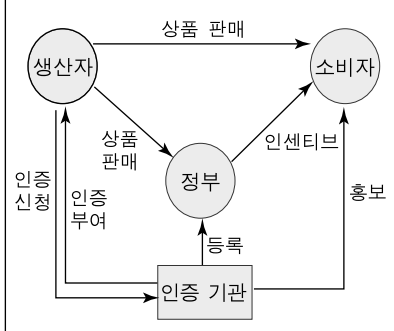

환경부는 7월부터 제품에 친환경 마크를 붙여주는 온실 가스 라벨링 제도를 실시할 계획이다. 온실 가스 라벨링은 원재료의 채취와 생산·사용·폐기에 이르기까지 배출된 전체 온실 가스의 양을 제품에 표시하는 제도로서, 정해진 기준보다 온실 가스를 적게 배출한 제품은 '저탄소 상품' 인증을 받는다. 친환경 이미지를 갖고 싶은 기업은 인증 기관에 신청할 수 있다.

- ○○신문, 2008년 5월 17일자 -

〈보 기〉

ㄱ. 저탄소 인증 상품에 대한 소비자의 인지도가 높아질 것이다.
ㄴ. 제품의 생산·유통 과정에서 기업의 친환경 마인드가 확산될 것이다.
ㄷ. 정부는 저탄소 상품을 구매하여 기업의 인증 신청을 장려할 것이다.

① ㄱ ② ㄷ ③ ㄱ, ㄴ
④ ㄴ, ㄷ ⑤ ㄱ, ㄴ, ㄷ

5. 그림은 상품의 종류와 마진에 따라 점포 소매상을 구분한 것이다. (가), (나)에 대한 설명으로 적절한 것을 〈보기〉에서 고른 것은?

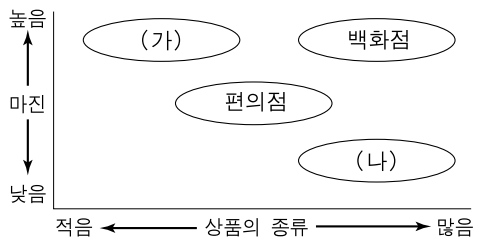

〈보 기〉

ㄱ. (가)는 전문품점이 해당된다.
ㄴ. (나)는 저렴한 가격으로 묶음 판매를 한다.
ㄷ. (가)는 (나)보다 상품 회전율이 높다.
ㄹ. (가)는 (나)보다 셀프 서비스 판매 비중이 높다.

① ㄱ, ㄴ ② ㄱ, ㄷ ③ ㄴ, ㄷ
④ ㄴ, ㄹ ⑤ ㄷ, ㄹ

6. 다음은 어느 개인의 금융 자산 보유 현황이다. 이를 통해 알 수 있는 내용으로 옳은 것을 〈보기〉에서 고른 것은? [3점]

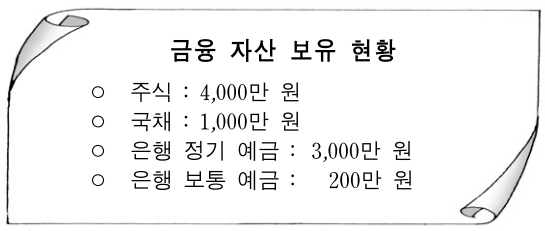
금융 자산 보유 현황
○ 주식 : 4,000만 원
○ 국채 : 1,000만 원
○ 은행 정기 예금 : 3,000만 원
○ 은행 보통 예금 : 200만 원

〈보 기〉

ㄱ. 자본 증권 투자는 수익성보다 안정성을 중요시하고 있다.
ㄴ. 예금액은 모두 예금자 보호법에 의해서 보호를 받는다.
ㄷ. 당좌 수표를 발행할 수 있는 금융 상품을 보유하고 있다.
ㄹ. 은행 예금은 유동성보다 이자 수입에 비중을 두고 있다.

① ㄱ, ㄴ ② ㄱ, ㄷ ③ ㄴ, ㄷ
④ ㄴ, ㄹ ⑤ ㄷ, ㄹ

7. 그래프는 미 달러화에 대한 원화의 환율 변동을 나타낸 것이다. (가)~(다) 각 구간에서의 합리적인 경제 행위로 옳은 것은? (단, 환율 이외의 요인은 고려하지 않는다.) [3점]

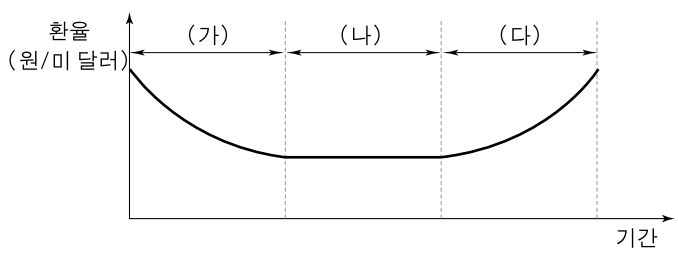

① (가)에서는 달러 표시 예금을 가능한 일찍 인출하여 환전한다.
② (가)에서는 미국 여행을 위해 가능한 일찍 원화를 달러로 바꾼다.
③ (다)에서는 달러 표시 외채 상환을 하기 위한 환전을 늦춘다.
④ (다)에서는 미국에서 수입한 상품 대금 결제를 위한 환전을 늦춘다.
⑤ (나)보다 (다)에서 미국 유학 경비를 환전하여 송금하는 것이 유리하다.

8. 다음 대화의 (가)에 해당하는 보험에 대한 설명으로 옳지 않은 것은?

① 공적 보험이다.
② 의무적으로 가입해야 한다.
③ 위험의 정도에 따라 보험료가 결정된다.
④ 피보험자나 피부양자가 질병 시 혜택을 받는다.
⑤ 소득 수준에 따라 차등적으로 보험료를 부담한다.

9. 그림은 경제 주체가 금융 시장을 통해 거래한 자금의 흐름을 나타낸 것이다. A~D에 해당하는 사례로 옳은 것을 〈보기〉에서 고른 것은? [3점]

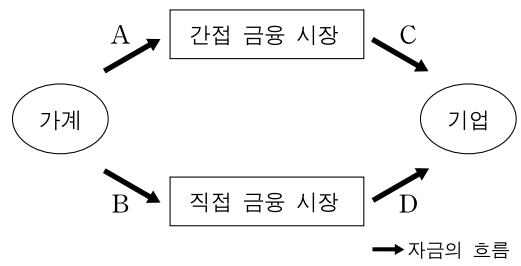

〈보 기〉

ㄱ. A는 주식에 투자한 경우이다.
ㄴ. B는 보험 회사에 보험료를 납부한 경우이다.
ㄷ. C는 운영 자금을 은행에서 대출 받은 경우이다.
ㄹ. D는 회사채를 발행하여 산업 자금을 조달한 경우이다.

① ㄱ, ㄴ ② ㄱ, ㄷ ③ ㄴ, ㄷ
④ ㄴ, ㄹ ⑤ ㄷ, ㄹ

10. 다음은 ○○기업(주)의 해외 진출 방식에 대한 대화 내용이다. (가)에 들어 갈 말로 옳은 것은?

이사 : 현재 우리 회사의 해외 진출 방식에 문제가 있다고 생각하지 않나요?
부장 : 네, 현재 방식으로는 국내 생산비 부담이 크고, 상대국의 수입 규제 때문에 어려움이 많습니다.
이사 : 그럼, (가) 방식으로 추진 계획을 세워보세요.
부장 : 알겠습니다. 그럼 현지 사업체를 인수해서 우리 회사가 경영하는 방식으로 계획을 세우도록 하겠습니다.

① 라이선싱 ② 간접 수출 ③ 직접 수출
④ 프랜차이징 ⑤ 해외 직접 투자

11. 다음은 전통적인 상거래 방식에서 전자 상거래로 전환한 사례이다. 이에 따른 결과를 그래프로 나타낸 것으로 적절한 것은? [3점]

> ○○서점은 기존의 오프라인 상점에서 전통적인 상거래 방식으로 도서를 판매했을 때, 매장 운영 비용을 포함한 전체적인 비용 부담이 컸었다. 이에 인터넷 쇼핑몰을 개설해서 전자 상거래 방식으로 도서를 판매한 결과, 비용이 줄어드는 효과를 얻었으며 판매 부수가 많을수록 도서 1권을 판매하기 위해 드는 비용이 오프라인 상점의 감소 폭보다 더 크게 감소하였다.

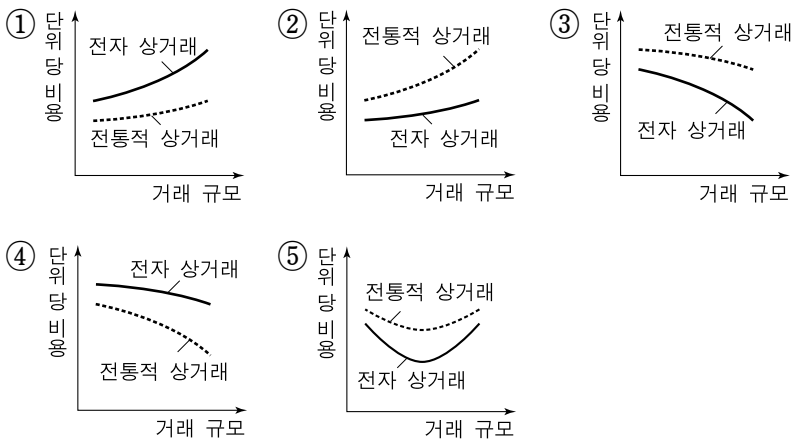

12. 그래프는 수출 대금 결제 방식에 의하여 결제된 금액을 나타낸 것이다. 이에 대한 설명으로 옳은 것만을 〈보기〉에서 있는 대로 고른 것은? [3점]

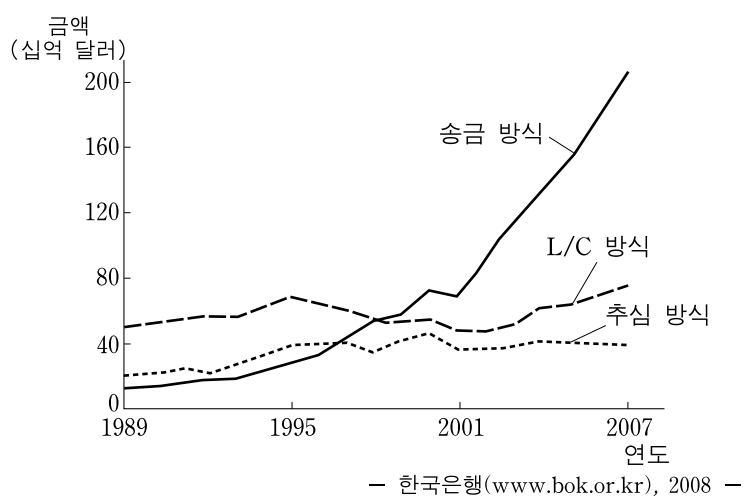

— 한국은행(www.bok.or.kr), 2008 —

〈보 기〉

ㄱ. 1989년은 인수 인도 조건(D/A), 지급 인도 조건(D/P) 방식의 결제 금액이 가장 적다.
ㄴ. 2001년부터 전신환, 우편환, 송금 수표 등에 의해 결제된 금액이 급증하고 있다.
ㄷ. 2007년은 수입업자의 거래 은행이 지급 보증한 결제 방식의 금액이 가장 많다.

① ㄱ ② ㄴ ③ ㄱ, ㄷ
④ ㄴ, ㄷ ⑤ ㄱ, ㄴ, ㄷ

13. 다음 자료에 나타난 매매 종류와 전자 상거래 유형으로 옳은 것은?

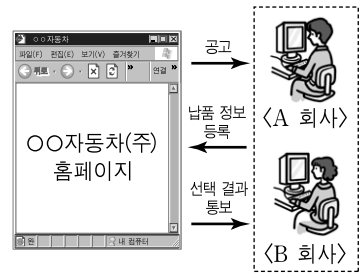

○○자동차(주)는 자사의 홈페이지에 타이어 구매 요구 사항을 공고하였다. 이 공고를 본 타이어 판매 회사들은 해당 홈페이지에 타이어 납품 정보를 등록하였다. ○○자동차(주)는 등록된 납품 정보를 토대로 최저 가격을 제시한 회사로부터 타이어를 구매하였다.

	매매 종류	전자 상거래 유형
①	직접 매매	B2C
②	입찰 판매	B2B
③	입찰 판매	B2C
④	입찰 매입	B2B
⑤	입찰 매입	B2C

14. 다음은 인코텀즈 2000에 의한 가격 조건이다. (가), (나)에 대한 설명으로 옳은 것은? [3점]

> (가) 수출업자는 지정된 도착항까지 운임과 보험료를 부담하며, 상품의 인도 장소는 출발항 본선이다.
> (나) 수출업자는 지정된 도착항까지 모든 위험과 비용을 부담하며, 상품의 인도 장소는 도착항 본선이다.

① (가)는 본선 인도 조건이다.
② (가)는 해상 사고 시 수입업자가 보험금을 받는다.
③ (나)는 선적지 인도 조건에 속한다.
④ (나)는 수입업자가 도착항까지 해상 보험 계약을 체결한다.
⑤ 동일한 수출 단가에서는 (가)보다 (나)가 수출업자에게 유리하다.

15. 다음은 최근 인터넷 쇼핑몰의 사례에 대한 신문 기사이다. (가)에 들어 갈 내용으로 가장 적절한 것은?

> 인터넷 쇼핑몰들이 그동안 배송의 문제로 기피했던 생선회나 계절 별미 음식 등과 같은 식품류 시장에 적극 나서고 있다. 이에 따라 소비자들은 보존의 이유로 하루 만에 배송되어야만 하는 '초신선 식품'까지 구입할 수 있게 되었다. 이는 [(가)] 기존 인터넷 쇼핑몰 거래의 한계를 극복한 좋은 사례이다.
>
> — ○○신문, 2008년 6월 24일자 —

① 구매 대상 품목이 제한되었던
② 개인 정보의 보호가 되지 않았던
③ 대금 결제 상의 보안이 되지 않았던
④ 판매자의 신용을 평가하기 힘들었던
⑤ 구매할 상품을 직접 만져볼 수 없었던

16. 다음과 같은 경상 수지 상황이 나타난다고 가정할 때, 이를 모두 충족하는 시점으로 옳은 것을 그래프의 A~E에서 고른 것은? [3점]

○ 전 월 대비 수출액에서 수입액을 차감한 금액이 증가했다.
○ 전 월 대비 임금, 이자 등이 속하는 수지의 흑자 폭이 커졌다.
○ 전 월 대비 외국 여행, 교육 등에 의한 수지의 적자 폭이 줄었다.

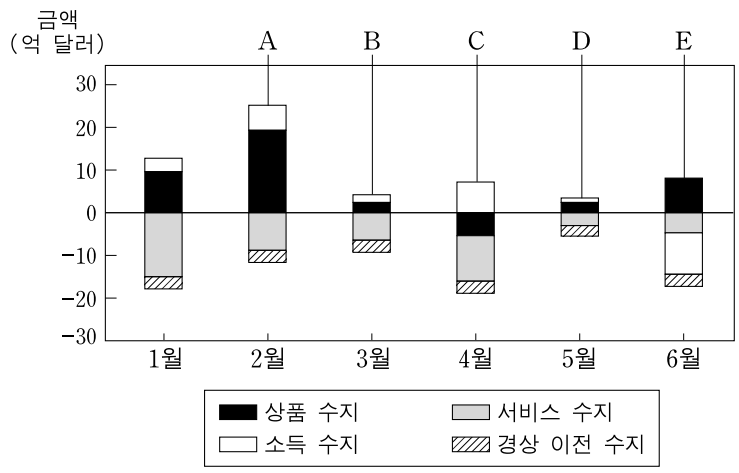

① A ② B ③ C ④ D ⑤ E

17. 그림은 경제 통합의 형태를 통합 정도에 따라 단계별로 구분한 것이다. 이에 대한 설명으로 옳은 것을 〈보기〉에서 고른 것은? [3점]

경제 통합의 형태

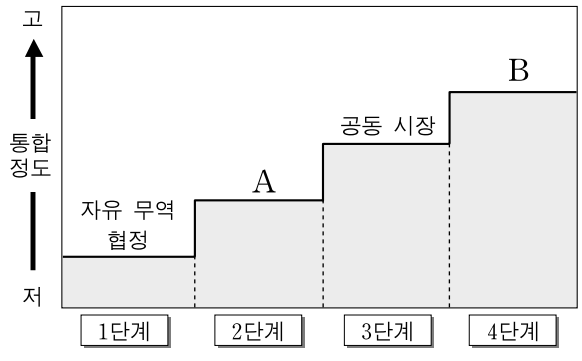

〈보 기〉

ㄱ. B는 회원국 간 공동 경제 정책을 수립한다.
ㄴ. A는 B보다 회원국 간에 생산 요소의 이동이 자유롭다.
ㄷ. 회원국 간 관세 및 수량 제한의 철폐는 모든 단계에 적용된다.
ㄹ. 비회원국에 대한 독자적인 관세 적용은 모든 단계에 해당된다.

① ㄱ, ㄴ ② ㄱ, ㄷ ③ ㄴ, ㄷ
④ ㄴ, ㄹ ⑤ ㄷ, ㄹ

18. 그림은 유통 활동의 일부분을 나타낸 것이다. (가), (나)에 대한 설명으로 옳은 것만을 〈보기〉에서 있는 대로 고른 것은?

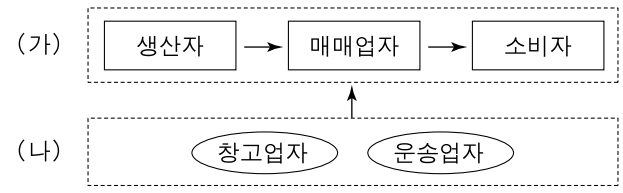

〈보 기〉

ㄱ. (가)는 유통 보조 활동을 수행한다.
ㄴ. (가)는 소유권 이전 과정을 나타낸 것이다.
ㄷ. (나)는 생산과 소비 사이의 장소적 · 시간적 불일치 문제를 극복해 준다.

① ㄱ ② ㄷ ③ ㄱ, ㄴ
④ ㄴ, ㄷ ⑤ ㄱ, ㄴ, ㄷ

[19~20] 다음은 ○○가구(주)의 수출 전략 보고서의 일부이다. 물음에 답하시오.

수출 전략 보고서

1. 제 품 명 : △△장식용 가구
2. 수출 방식
○ 상대국의 가구 완제품에 대한 수입 규제로 인하여 현지 공장에 반제품으로 수출
○ 수출된 반제품을 현지 공장에서 조립 · 생산하여 판매하는 방식
○ 목 적 : (가)
3. 현지 판매 전략
○ 목 표 : 가구의 고품질, 서비스로 고객 만족
○ 유통 전략 : 일정 자격을 갖춘 대리점 형태
○ 광고 전략 : 제품 이미지에 맞는 쇼윈도, 점포 내 진열
○ 가격 전략 : 경쟁사 동종 제품 대비 10% 낮게 책정

19. 위 자료에서 (가)에 해당하는 내용으로 적절한 것은? [3점]

① 무역 장벽을 회피하기 위하여
② 특정 기술 제공으로 로열티를 받기 위하여
③ OEM 방식으로 상표 인지도를 제고하기 위하여
④ 공장 설비, 생산 기술 등의 종합적인 수출을 위하여
⑤ 원료를 가공한 후 수출하여 외화를 획득하기 위하여

20. 위 자료의 현지 판매 전략에 대한 설명으로 옳은 것을 〈보기〉에서 고른 것은?

〈보 기〉

ㄱ. 편의품을 대상으로 수립된 것이다.
ㄴ. 개방적 유통 경로 정책을 선택하고 있다.
ㄷ. 점두 광고로 구매 의욕을 자극하고 있다.
ㄹ. 타사 제품과의 가격 차별화 전략을 사용하고 있다.

① ㄱ, ㄴ ② ㄱ, ㄷ ③ ㄴ, ㄷ
④ ㄴ, ㄹ ⑤ ㄷ, ㄹ

* 확인 사항
○ 답안지의 해당란에 필요한 내용을 정확히 기입(표기)했는지 확인하시오.