제 4 교시

직업탐구 영역(상업경제)

성명		수험 번호	

1. 다음 기사에 나타난 지식재산권과 관련된 설명으로 옳은 것을 〈보기〉에서 고른 것은?

헤밍웨이 작품에 대한 출판 대전(大戰)이 펼쳐지고 있다. 1961년 7월 2일 헤밍웨이가 사망하면서 사후 50년 동안 보호받던 작품에 대한 권리가 소멸되었기 때문이다.

한편, 작년에는 한 · EU 자유무역협정과 맞물려 문학 작품 등에 대한 지식재산권의 보호 기간이 현행 사후 50년에서 70년으로 늘어났다. 하지만 적용 시점에 유예 기간을 두어 내년 7월 1일까지 사후 50년이 되는 작가들의 작품에는 기존 보호 기간이 적용된다.

— ○○신문, 2012년 6월 8일자 —

〈보 기〉

ㄱ. 구체적 형태를 갖추지 않은 재화에 속한다.
ㄴ. 물품 모양 등의 디자인에 부여하는 배타적 권리이다.
ㄷ. 예술 범위 등에 속하는 저작물에 부여하는 독점적 권리이다.
ㄹ. 물품의 구조를 실용적으로 개선한 것에 부여하는 독점적 권리이다.

① ㄱ, ㄴ ② ㄱ, ㄷ ③ ㄴ, ㄷ
④ ㄴ, ㄹ ⑤ ㄷ, ㄹ

2. 그래프는 A국의 GDP 및 GNI 성장률 변동 추이를 나타낸 것이다. 이에 대한 설명으로 옳은 것만을 〈보기〉에서 있는 대로 고른 것은?

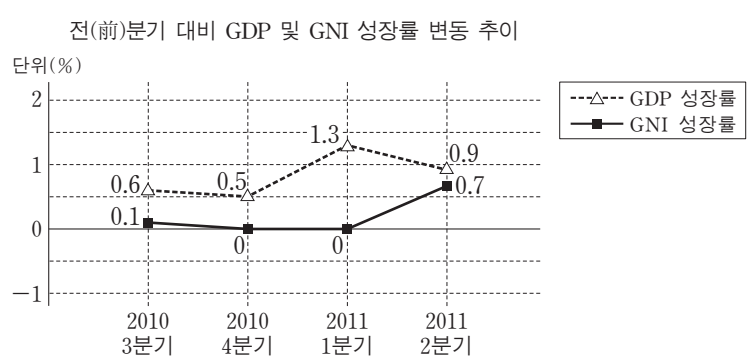

〈보 기〉

ㄱ. 2011년 1분기는 직전 분기보다 국민 총소득의 성장률이 증가하였다.
ㄴ. 2011년 1분기는 직전 분기에 비해 국내 총생산의 성장률은 변동이 없다.
ㄷ. 2011년 2분기는 직전 분기보다 A국 국민이 국내외 생산 활동에 참여한 대가로 받은 소득을 합계한 지표의 성장률이 증가하였다.

① ㄱ ② ㄷ ③ ㄱ, ㄴ
④ ㄴ, ㄷ ⑤ ㄱ, ㄴ, ㄷ

3. 다음 (가)~(다)에 해당하는 상품의 특징으로 적절한 것을 그림 A~C에서 고른 것은? (단, 편의품, 선매품, 전문품으로 한정한다.) [3점]

구분	(가)	(나)	(다)
특성	• 셀프 서비스 방식으로 구매 • 박리다매 방식으로 판매	• 상품 선택 시 전문적 지식 필요 • 전문화된 특정 브랜드 제품 판매	• 소비자들의 개성에 따라 구매 • 다양한 제품들의 품질, 가격을 비교하여 구매

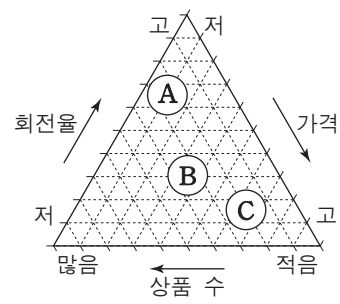

	(가)	(나)	(다)
①	A	B	C
②	A	C	B
③	B	A	C
④	B	C	A
⑤	C	B	A

4. 다음은 ○○(주)의 자금 관리부 업무 일지이다. 이에 나타난 자금 조달 상황에 대한 설명으로 적절한 것을 〈보기〉에서 고른 것은? [3점]

업무 일지

○○(주) 자금 관리부

일 자	내 용
6월 4일	• 신규 사업에 필요한 설비 투자 자금 200억 원을 유상 증자, 보유 주식 매각, 은행 대출로 조달하기로 함
6월 27일	• 150억 원의 주식을 신규로 발행하여 유상 증자함 • 보유 중인 A기업의 주식을 전부 매각하여 35억 원의 자금을 조달하고, 나머지 부족한 자금은 은행으로부터 대출 받아 조달함

〈보 기〉

ㄱ. 간접 금융보다 직접 금융을 통한 자금 조달액이 많다.
ㄴ. 타인 자본보다 자기 자본을 통한 자금 조달액이 많다.
ㄷ. 만기가 있는 자본 증권을 증권 시장을 통해 발행하였다.
ㄹ. 자금 조달 결과, A기업으로부터 받는 배당금이 증가한다.

① ㄱ, ㄴ ② ㄱ, ㄷ ③ ㄴ, ㄷ
④ ㄴ, ㄹ ⑤ ㄷ, ㄹ

이 문제지에 관한 저작권은 한국교육과정평가원에 있습니다.

5. 다음은 경쟁 매매에 해당하는 기사이다. 이에 나타난 매매 방식에 대한 설명으로 옳은 것은?

프랑스 화가 마르크 샤갈이 그린 '부케'라는 유화 작품은 △△회사가 개최한 미술품 매매에서 적상법을 적용한 경쟁 매매 결과, 최고가인 17억 원에 낙찰되었다.

또한 박수근의 유화 작품 '아이를 업은 소녀와 아이들'도 15억 2천만 원에 낙찰되었다.

— ○○신문, 2012년 6월 28일자 —

① 공기업의 물품 처분 시 주로 이용된다.
② 서면으로 거래하는 입찰 매매 방식이다.
③ 판매자와 구매자가 다수인 경우 이용된다.
④ 판매자와 구매자 간 동시 경쟁으로 가격이 결정된다.
⑤ 구두나 손짓 등으로 주로 가격을 결정하는 경매 방식이다.

6. 다음은 보험금을 받은 사례이다. (가), (나)에 해당하는 보험에 대한 설명으로 옳은 것은?

(가) 회사원 A씨는 업무 중 발생한 사고로 인해 근로 복지 공단에 보험금을 신청하고 그 사유가 인정되어 보험금을 지급받았다.
(나) 회사원 B씨는 10년 이상 근무하던 회사를 퇴직한 후 재취업 준비 중에 실업 급여를 신청하여 보험금을 지급받았다.

① (가)는 임의로 가입하는 보험이다.
② (가)는 보장성과 저축성 기능을 가지는 보험이다.
③ (나)는 사업주가 보험료를 전액 부담한다.
④ (가)와 (나)는 보험가액에 의해 보험금이 결정된다.
⑤ (가)는 산업재해보상보험, (나)는 고용보험에 해당한다.

7. 다음은 ○○기업의 국제화 과정을 나타낸 것이다. 이와 같은 국제화를 추진하게 된 동기로 적절한 것을 〈보기〉에서 고른 것은? [3점]

○○기업은 국제화 단계를 해외 시장 지향에서 현지 시장 지향으로 전환하여 추진하게 되었다. 이는 자사가 보유하고 있는 각종 생산 요소를 해외로 이전시켜 현지 국가에 자회사나 지사를 설치하여 이익을 극대화하기 위한 전략이다.

국제화 단계

〈보 기〉
ㄱ. 국내 생산 제품의 판매량 확대를 위해
ㄴ. 자국보다 유리한 생산 입지를 확보하기 위해
ㄷ. 외국의 관세 및 비관세 장벽을 회피하기 위해
ㄹ. 직접 수출 방식을 확대하여 시장 경쟁력을 선점하기 위해

① ㄱ, ㄴ ② ㄱ, ㄷ ③ ㄴ, ㄷ
④ ㄴ, ㄹ ⑤ ㄷ, ㄹ

8. 다음은 A상사의 판매 청약에 대해 반대 청약을 보낸 이메일이다. 반대 청약을 반영하여 매매 계약을 체결할 경우 판매 청약에서 변경되는 내용으로 옳은 것을 〈보기〉에서 고른 것은?

파일(F) 편집(E) 보기(V) 즐겨찾기(A) 도구(T) 도움말(H)
뒤로 검색 즐겨찾기
답장 전체답장 전달 ✕삭제 스팸신고 목록 | 위 | 아래

수신인: A 상사
참조인:
제 목: ○○상품에 대한 반대 청약

1. 귀사의 판매 청약에 대하여 다음과 같이 반대 청약을 합니다.

- 다 음 -

• 품질 조건: 판매적격품질(GMQ)에서 평균중등품질(FAQ)로 변경
• 수량 조건: 100박스에서 100다스로 단위 변경
• 인도 시기: 변경없음
• 대금 지급 시기: 상환급에서 후급으로 변경. 끝.

〈보 기〉
ㄱ. 대금 지급은 선급에서 후급으로 변경된다.
ㄴ. 품질 조건은 표준품에서 견품으로 변경된다.
ㄷ. 수량 조건은 개수 단위 계산 방법이 유지된다.
ㄹ. 매도자의 대손 위험이 커지는 조건으로 변경된다.

① ㄱ, ㄴ ② ㄱ, ㄷ ③ ㄴ, ㄷ
④ ㄴ, ㄹ ⑤ ㄷ, ㄹ

9. 다음과 같이 수출 계약서를 (가)에서 (나)로 변경할 때 나타나는 상황에 대한 설명으로 옳은 것을 〈보기〉에서 고른 것은? (단, 가격 조건은 인코텀즈 2000에 의한다.) [3점]

(가)

수출 계약서

수출업자인 대한민국의 ○○회사와 수입업자인 미국의 △△회사는 다음 조건으로 거래를 이행할 것을 합의합니다.

1. 거래 형태: 본인 대 본인
2. 가격 조건:
US$ 10,000 FOB Incheon
3. 결제 조건: 추심 결제 방식
4. 보험 조건: ICC(A)

➡

(나)

수출 계약서

수출업자인 대한민국의 ○○회사와 수입업자인 미국의 △△회사는 다음 조건으로 거래를 이행할 것을 합의합니다.

1. 거래 형태: 본인 대 본인
2. 가격 조건:
US$ 10,000 CIF New York
3. 결제 조건: 신용장 결제 방식
4. 보험 조건: ICC(C)

〈보 기〉
ㄱ. 화물에 대한 해상 보험의 담보 범위가 더 넓어진다.
ㄴ. 수출업자는 무역 결제 대금 회수가 더 확실해진다.
ㄷ. 해상 운임은 수입업자에서 수출업자 부담으로 변경된다.
ㄹ. 수출업자의 책임 분기점은 인천항에서 뉴욕항으로 변경된다.

① ㄱ, ㄴ ② ㄱ, ㄷ ③ ㄴ, ㄷ
④ ㄴ, ㄹ ⑤ ㄷ, ㄹ

이 문제지에 관한 저작권은 한국교육과정평가원에 있습니다.

10. 다음은 정보 통신 서비스에 관련된 기사이다. 이에 해당하는 전자 상거래 유형으로 옳은 것을 〈보기〉에서 고른 것은?

우리나라는 제30회 유엔 공공 행정의 날 기념식에서 전자정부 글로벌 분야, 지역 분야, 온라인 참여 분야 부문에서 대상을 수상하여 전자정부 서비스 수준이 세계 최고임을 입증했다.

전자정부 서비스의 대표격인 전자민원24 서비스는 편리성 때문에 가입자 수가 1,020만 명에 달했다.

— ○○신문, 2012년 6월 26일자 —

〈보 기〉

ㄱ. B2B　　ㄴ. B2C
ㄷ. G2B　　ㄹ. G2C

① ㄱ, ㄴ　② ㄱ, ㄷ　③ ㄴ, ㄷ
④ ㄴ, ㄹ　⑤ ㄷ, ㄹ

11. 다음은 환경과 관련된 내용이다. 이에 해당하는 국제 환경 협약으로 옳은 것은?

온실 가스 감축 의무가 있는 기업이나 국가는 온실 가스 배출 쿼터를 부여받은 후 산업 활동 중에 할당받은 배출량 이하로 탄소를 배출한 경우에 탄소 배출권을 판매할 수 있다.

반대로 할당받은 배출량 이상으로 탄소를 배출한 기업이나 국가는 잉여 배출권을 확보한 기업이나 국가로부터 배출권을 구매하여야 한다.

① 런던 협약　② 바젤 협약
③ 교토 의정서　④ 몬트리올 의정서
⑤ 생물 다양성 협약

12. 다음은 해외 진출 방식과 사례를 나타낸 것이다. (가)~(다)에 대한 설명으로 옳은 것은? [3점]

해외 진출 방식	사 례
(가)	우리나라의 ○○자동차(주)는 외국의 △△자동차(주)의 경영을 위탁받아 자사의 전문 인력을 파견하여 경영 관리 활동을 대행하고 있다.
(나)	우리나라의 A기업은 외국 정부와 고속도로 공사 계약 체결에 따라 고속도로를 건설하고 운영하여 투자 자금을 회수한 후 외국 정부에게 양도하였다.
(다)	우리나라의 B기업은 창작 뮤지컬 '□□'를 해외의 C기업과 5년간 판권을 제공하는 수출 계약을 체결하고 총 매출액의 10%를 로열티로 받기로 하였다.

① (가)는 경영권 획득을 목적으로 한다.
② (나)는 계약 방식 중 턴키 계약에 해당한다.
③ (다)는 국제 라이선싱 방식에 해당한다.
④ (가)와 (나)는 국제 컨소시엄 형태로 운영한다.
⑤ (나)는 해외 직접 투자, (다)는 해외 간접 투자에 해당한다.

13. 다음 글에서 객주가 수행한 상업의 기능으로 적절한 것을 〈보기〉에서 고른 것은? [3점]

객상주인(客商主人), 즉 객주는 조선 후기에 다른 상인들의 물건을 팔아주거나 매매를 주선하는 대가로 수수료를 받는 상인으로서, 매매를 성사시키는 일을 업(業)으로 하였다.

또한 그들은 본업은 아니지만 부업으로 대부업과 같은 금융 서비스를 제공하였다.

〈보 기〉

ㄱ. 자금을 융통하는 기능
ㄴ. 소유권을 이전하는 기능
ㄷ. 장소적 불일치를 해결하는 기능
ㄹ. 경제적 위험에 따른 손실을 보상하는 기능

① ㄱ, ㄴ　② ㄱ, ㄷ　③ ㄴ, ㄷ
④ ㄴ, ㄹ　⑤ ㄷ, ㄹ

14. 다음의 물류 정보 시스템을 도입하였을 때 얻을 수 있는 효과로 적절한 것을 〈보기〉에서 고른 것은?

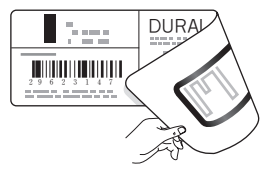

기존의 바코드 시스템은 빛을 이용하여 판독을 하였지만, 이 시스템은 무선 주파수를 이용한다. 따라서 바코드 판독기와 달리 비접촉 상태에서도 태그를 읽을 수 있으며, 심지어 물체 사이를 통과하여 정보를 수신할 수도 있다.

〈보 기〉

ㄱ. 상품의 포장 비용을 절감할 수 있다.
ㄴ. 상품 배송 시 공차율을 줄일 수 있다.
ㄷ. 상품 생산 및 유통 이력을 파악할 수 있다.
ㄹ. 상품 도난 및 분실 등의 손실을 예방할 수 있다.

① ㄱ, ㄴ　② ㄱ, ㄷ　③ ㄴ, ㄷ
④ ㄴ, ㄹ　⑤ ㄷ, ㄹ

15. 그래프는 한국은행 기준금리를 나타낸 것이다. A~D 기간의 기준금리에 따라 나타날 수 있는 경제 현상으로 적절한 것은? (단, 기준금리만 고려한다.) [3점]

A~D 기간의 기준금리

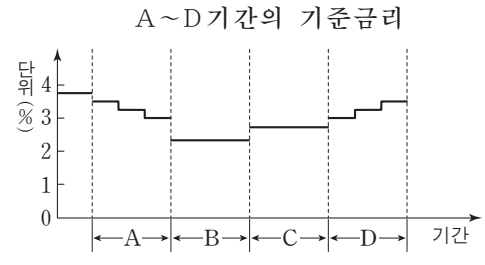

① A 기간 내에서는 시중 통화량이 지속적으로 증가할 것이다.
② C 기간 내에서는 대출 이자 부담이 지속적으로 감소할 것이다.
③ D 기간 내에서는 기업의 신규 시설 투자가 지속적으로 늘어날 것이다.
④ C 기간에서는 B 기간보다 은행 예금이 감소할 것이다.
⑤ D 기간에서는 C 기간보다 소비자 물가 상승률이 높아질 것이다.

이 문제지에 관한 저작권은 한국교육과정평가원에 있습니다.

16. 다음은 무역의 사례를 나타낸 것이다. ○○ 무역상의 입장에서 본 무역의 종류로 옳은 것은?

> 한국의 ○○ 무역상은 청바지 제품을 취급하는 무역업체이다. ○○ 무역상은 베트남의 A수출상과 미국의 B수입상의 거래에 개입하여 남성용 청바지 제품 10,000벌의 매매 계약을 주선하고 알선 수수료를 받았다.

① 구상 무역 ② 삼각 무역
③ 중개 무역 ④ 직접 수출
⑤ 통과 무역

17. 다음은 각국의 통화 대비 원화 환율 변동을 나타낸 것이다. 환율 변동 시점 A~D에 대한 설명으로 옳은 것은? (단, 환율만 고려한다.) [3점]

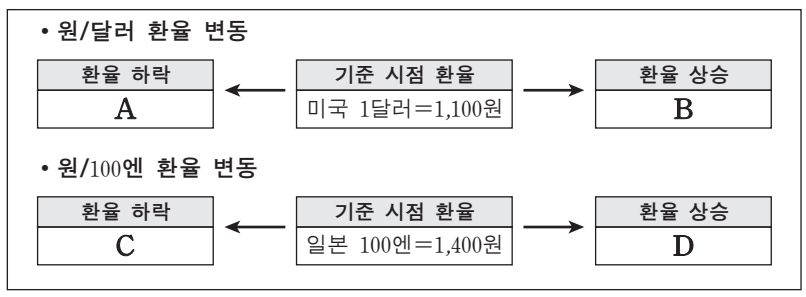

① A 시점보다 B 시점에서 달러 표시 외화 예금을 원화로 환전하는 것이 불리하다.
② A 시점보다 B 시점에서 한국 정유사가 원유 수입 시 원화를 달러로 환전하여 결제하는 것이 유리하다.
③ C 시점보다 D 시점에서 일본 관광을 목적으로 원화를 엔화로 환전하는 것이 유리하다.
④ C 시점보다 D 시점에서 일본으로 수출하는 한국 기업의 수출 상품 가격 경쟁력은 높아진다.
⑤ C 시점에서 엔화로 계약한 수출 대금을 D 시점에서 회수하여 원화로 환전하였을 때 환차손이 발생한다.

18. 그림은 신상품의 판매 촉진 전략에 관한 대화 장면이다. 이에 나타난 전략으로 적절한 것은?

① 개방적 유통 정책 ② 전속적 유통 정책
③ 선택적 유통 정책 ④ 직접광고(DM) 전략
⑤ 공중관계(PR)활동 전략

19. 다음은 A국과 B국 간 경제 통합 과정이다. (가)~(다)에 해당하는 경제 통합 단계별로 수입국인 A국의 입장에서 나타날 수 있는 현상으로 적절한 것을 〈보기〉에서 고른 것은? [3점]

	A국과 B국의 경제 통합 단계	관세 부과 전 오렌지 수입 단가/ton	수입 관세(율)
(가)	FTA 체결 전	$ 1,000	13.5%
(나)	FTA 발효 이후	$ 1,000	철폐
(다)	공동 시장 발효 이후	$ 1,000	철폐

〈보 기〉

ㄱ. (나)단계에서는 B국 이외의 국가로부터 오렌지 수입 시 관세가 철폐될 것이다.
ㄴ. (다)단계에서는 B국과 오렌지 생산에 필요한 생산 요소의 이동이 자유로워질 것이다.
ㄷ. (가)단계는 (나)단계보다 B국으로부터의 오렌지 수입에 따른 관세 수입이 감소될 것이다.
ㄹ. (나)단계는 (가)단계보다 B국으로부터의 오렌지 수입량이 증가될 것이다.

① ㄱ, ㄴ ② ㄱ, ㄷ ③ ㄴ, ㄷ
④ ㄴ, ㄹ ⑤ ㄷ, ㄹ

20. 표는 우리나라의 경상 수지를 나타낸 것이다. 2월에 비해 3월의 경상 수지에 대한 설명으로 옳은 것은? [3점]

2012년 월별 경상 수지

(단위: 억 달러)

항목 \ 년월	2012년 2월	2012년 3월
경상 수지	5.6	29.7
상품 수지	13.1	29.3
서비스 수지	−12.2	7.0
소득 수지	6.1	−3.2
경상 이전 수지	−1.5	−3.4

*현재 일부 수지 항목의 명칭을 변경하여 사용하고 있음

-한국은행(www.bok.or.kr), 2012-

① 상품 수출액 대비 수입액이 증가하였다.
② 임금, 배당금 등이 속한 수지는 지급액보다 수취액이 증가하였다.
③ 운임, 여행비 등의 수취와 지급의 차액이 속한 수지는 적자로 전환되었다.
④ 국제 기구 기부금 수취와 취급의 차액이 속한 수지는 흑자로 전환되었다.
⑤ 특허권 사용료 수취와 지급의 차액이 속한 수지가 가장 큰 폭으로 개선되었다.

> * 확인 사항
> ○ 답안지의 해당란에 필요한 내용을 정확히 기입(표기)했는지 확인하시오.

이 문제지에 관한 저작권은 한국교육과정평가원에 있습니다.