2012 12월 고2 영남권연합학력평가 문제지

4 교시 영역(지리)

		수험 번호						2				

○ 선택한 과목의 문제지인지 확인하시오.
○ 문제지의 해당란에 성명과 수험 번호를 정확히 쓰시오.
○ 답안지의 해당란에 성명과 수험 번호를 쓰고, 또 수험 번호와 답을 정확히 표시하시오.
○ 선택한 과목 순서대로 문제를 풀고, 답을 표시하시오.
○ 문항에 따라 배점이 다르니, 각 물음의 끝에 표시된 배점을 참고하시오. 3점 문항에만 점수가 표시되어 있습니다. 점수 표시가 없는 문항은 모두 2점입니다.

1. (가), (나)는 조선시대 대표적인 지리서의 일부분이다. 두 지리서에 대한 설명으로 옳은 것은?

> (가) 본래 신라의 달구화현인데, 경덕왕이 △△로 이름을 고쳐서 수창군의 속현으로 삼았다.
> · 관원: 부사, 교수 각 1명
> · 산천: 연귀산, 침산, 공산, 마천산, 왕산
> · 토산물: 붕어, 은구어, 황어, 백복령, 감, 잣, 송이
> (나) 한 도의 한복판에 위치하여 남북으로 거리가 매우 고르니, 또한 지형이 훌륭한 도회지이다. △△ 남동쪽에서 ○○ 사이 여덟 고을이 있는데, 땅은 비록 기름지나 왜국과 가까워 살 만한 곳이 못된다.

① (가)는 실학자에 의해 편찬되었다.
② (가)는 서양의 지리적 지식 파악에 중점을 두었다.
③ (나)는 국가 통치의 기초 자료로 사용되었다.
④ (나)는 거주지의 입지 조건을 중시하였다.
⑤ (가)보다 (나)의 제작 시기가 빠르다.

2. 지도를 분석한 내용으로 옳은 것은?

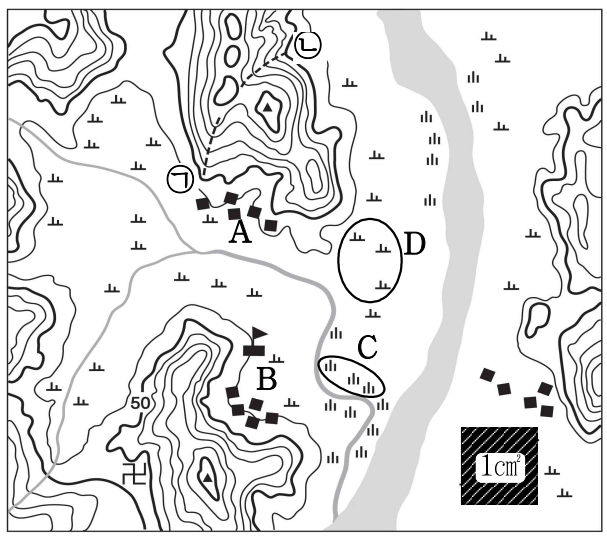

① ㉠은 계곡, ㉡은 능선이다.
② A 마을보다 B 마을의 일조량이 더 많다.
③ 빗금 친 부분의 실제 면적은 0.25㎢이다.
④ C는 D보다 토양 입자가 커서 배수가 양호하다.
⑤ 학교에서 남서쪽에 위치한 절을 육안으로 볼 수 있다.

3. 자료는 우리나라 해안선의 굴곡 변화를 나타낸 것이다. 이에 대한 설명으로 옳은 것은? [3점]

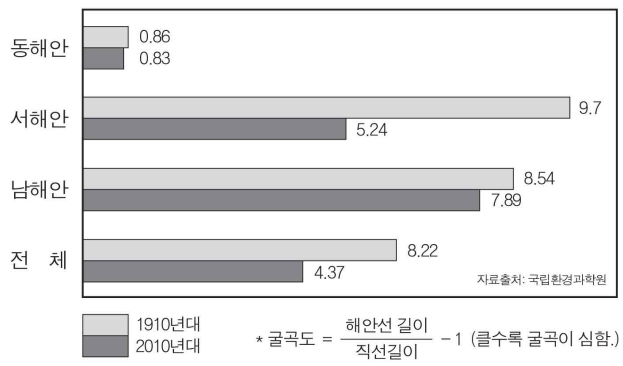

① 우리나라 전체 해안선의 길이가 늘어났다.
② 서해안은 간척 사업으로 굴곡도가 감소하였다.
③ 굴곡도가 가장 작은 해안은 조력 발전이 용이하다.
④ 굴곡도의 변화가 가장 큰 해안은 통상기선을 적용한다.
⑤ 2010년대에 드나듦이 가장 단조로운 해안은 남해안이다.

4. 우리나라 어느 지역의 특징에 관한 스무고개의 일부이다. (가)에 들어갈 내용으로 옳은 것은? [3점]

한 고개	화산 활동으로 형성된 섬인가요?	예
두 고개	행정구역상 강원도에 속한 곳인가요?	아니오
세 고개	동경 131° 52′, 북위 37° 14′에 위치하나요?	예
네 고개	(가)	예

① 해가 제일 먼저 뜨는 곳인가요?
② 조류의 퇴적 작용이 활발한가요?
③ 기온의 연교차가 가장 큰 곳인가요?
④ 세계 자연 유산으로 지정되어 있나요?
⑤ 해안에서 공룡 발자국 화석을 볼 수 있나요?

5. 자료의 공통된 주제로 가장 적절한 것은? [3점]

> **○○신문**
> 경기도 지역의 인구 100명당 일자리는 32개로, ○○시의 43개보다 11개가 적은 것으로 나타났다. 이는 경기도 일부 지역이 ○○시의 보조 기능을 하는 침상 도시로 발달되었음을 보여준다.

> **△△일보**
> △△시와 김해시를 잇는 경전철은 출퇴근과 통학 목적으로 가장 많이 이용되고, 그 외 여가·문화, 상품 구매 순으로 집계되었다. 갈수록 △△시로의 상권 쏠림 현상이 심화되는 것으로 나타났다.

① 도시 내부의 기능 지역 분화
② 균형 개발에 따른 주민 복지 증대

③ 위성도시의 발달에 따른 대도시권 형성
④ 접근성의 향상으로 인한 교통 혼잡의 완화
⑤ 중심 업무 기능의 발달로 인한 도심의 지가 상승

6. 하천 A, B 두 지점의 특징을 고려할 때, 그래프의 (가)와 (나)에 들어갈 지표로 옳은 것은? [3점]

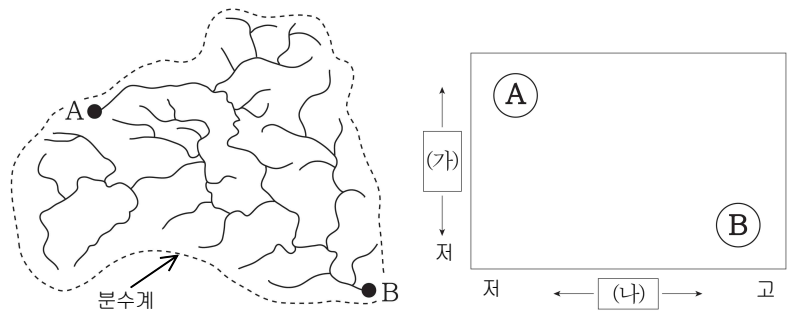

*'고'는 높다, 많다, 크다, '저'는 낮다, 적다, 작다를 의미함.

	(가)	(나)
①	평균 유량	해발 고도
②	평균 유량	범람 규모
③	해발 고도	퇴적물의 평균 입자 크기
④	하상의 경사	범람 규모
⑤	하상의 경사	퇴적물의 평균 입자 크기

7. 그림은 할아버지와 손녀의 대화 내용이다. 대화 내용에서 밑줄 친 (가) 현상에 대한 설명으로 옳은 것은?

① 여름철에 가장 뚜렷하게 나타난다.
② 고도가 높아질수록 기온이 낮아진다.
③ 일교차가 작고 흐린 날에 잘 나타난다.
④ 짙은 안개가 끼고 냉해가 발생하기도 한다.
⑤ 대기가 불안정하여 대류 현상이 활발해진다.

8. A 지역에 발달한 관광 자원으로 옳은 것을 <보기>에서 고른 것은? [3점]

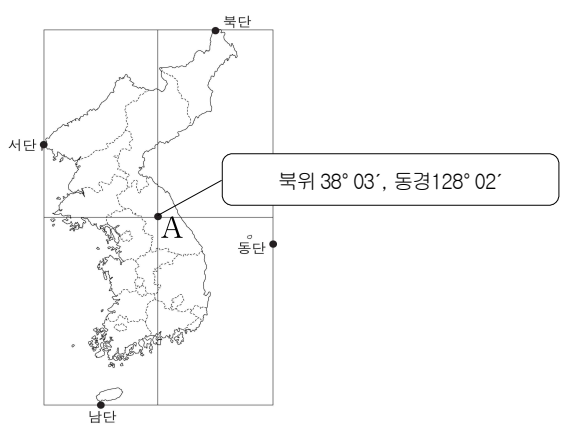

<보 기>

ㄱ. 폐광 시설을 이용한 문화 체험 관광
ㄴ. 넓은 평야에서 펼쳐지는 지평선 축제
ㄷ. 비무장지대의 냉전 유산을 이용한 안보 관광
ㄹ. 수리적 위치의 정중앙이라는 특성을 이용한 배꼽 축제

① ㄱ, ㄴ ② ㄱ, ㄷ ③ ㄴ, ㄷ ④ ㄴ, ㄹ ⑤ ㄷ, ㄹ

9. 밑줄 친 (가)에 들어갈 내용으로 적절하지 <u>않은</u> 것은? [3점]

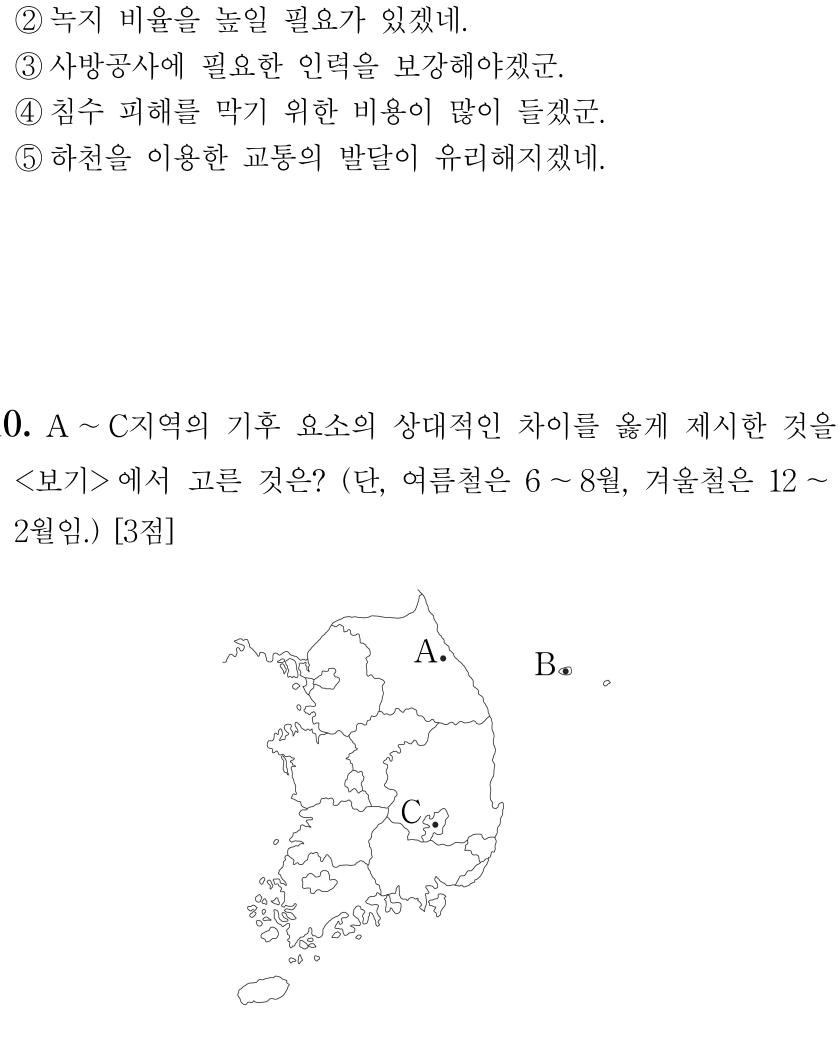

① 하천의 유량 변동이 커지겠군.
② 녹지 비율을 높일 필요가 있겠네.
③ 사방공사에 필요한 인력을 보강해야겠군.
④ 침수 피해를 막기 위한 비용이 많이 들겠군.
⑤ 하천을 이용한 교통의 발달이 유리해지겠네.

10. A ~ C지역의 기후 요소의 상대적인 차이를 옳게 제시한 것을 <보기>에서 고른 것은? (단, 여름철은 6 ~ 8월, 겨울철은 12 ~ 2월임.) [3점]

<보 기>

	기후 요소	A	B	C
ㄱ	최난월 평균 기온	■		■
ㄴ	최한월 평균 기온		■	■
ㄷ	여름철 강수량		■	■
ㄹ	겨울철 강수량	■	■	

■ 고 ↕ 저

① ㄱ, ㄴ ② ㄱ, ㄷ ③ ㄴ, ㄷ ④ ㄴ, ㄹ ⑤ ㄷ, ㄹ

11. 지도는 수도권의 기업 내 기능별 생산 활동의 분포를 나타낸 것이다. 자료에 대한 분석으로 옳은 것을 <보기>에서 고른 것은?

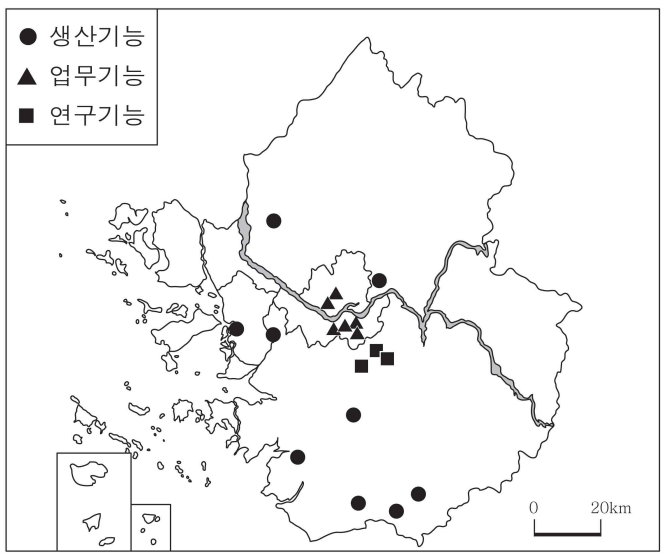

<보 기>

ㄱ. 기업의 공간적 분업 현상이 나타난다.
ㄴ. 업무 기능은 접근성이 높은 곳에 있다.
ㄷ. 서울에는 제조업 기능이 집중되어 있다.
ㄹ. 연구소는 공장에 비해 분산되어 입지한다.

① ㄱ, ㄴ ② ㄱ, ㄷ ③ ㄴ, ㄷ ④ ㄴ, ㄹ ⑤ ㄷ, ㄹ

12. 자료를 보고 ○○ 마을의 변화를 추론한 내용으로 옳은 것을 <보기>에서 고른 것은?

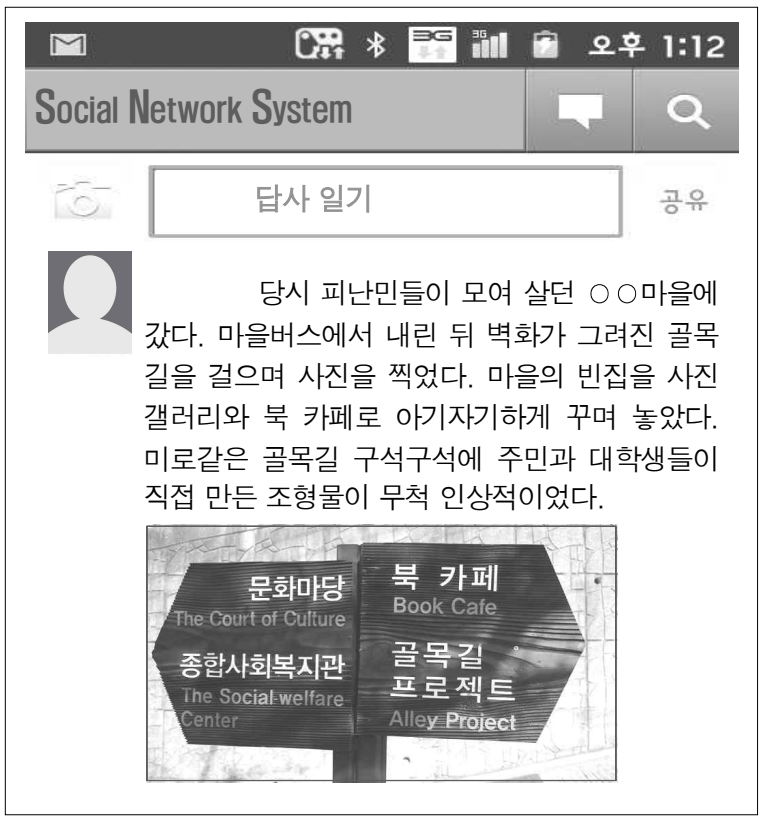

<보 기>

ㄱ. 주민들의 물리적 주거 환경이 개선되었다.
ㄴ. 하향식 개발이 이루어져 지가가 상승하였다.
ㄷ. 재개발을 통해 문화 체험 공간이 조성되었다.
ㄹ. 노후화된 건물이 고층의 첨단 건물로 대체되었다.

① ㄱ, ㄴ ② ㄱ, ㄷ ③ ㄴ, ㄷ ④ ㄴ, ㄹ ⑤ ㄷ, ㄹ

13. 그래프는 1차 에너지원의 지역별 생산 비중을 나타낸 것이다. (가) ~ (라)에 대한 설명으로 옳은 것을 <보기>에서 고른 것은? (단, 1차 에너지원은 수력, 무연탄, 원자력, 천연가스만 고려함.) [3점]



(통계청, 2011)

<보 기>

ㄱ. (가)는 재생 가능한 순환 자원이다.
ㄴ. (나)는 주로 가정용 소비 비중이 높다.
ㄷ. (다)는 폐기물 처리에 많은 비용이 든다.
ㄹ. (라)는 온실가스 배출량이 가장 많다.

① ㄱ, ㄴ ② ㄱ, ㄷ ③ ㄴ, ㄷ ④ ㄴ, ㄹ ⑤ ㄷ, ㄹ

14. (가) 지도의 촌락과 비교한 (나) 지도의 촌락에 대한 상대적 특징을 그래프에서 고른 것은?

(가) (나)

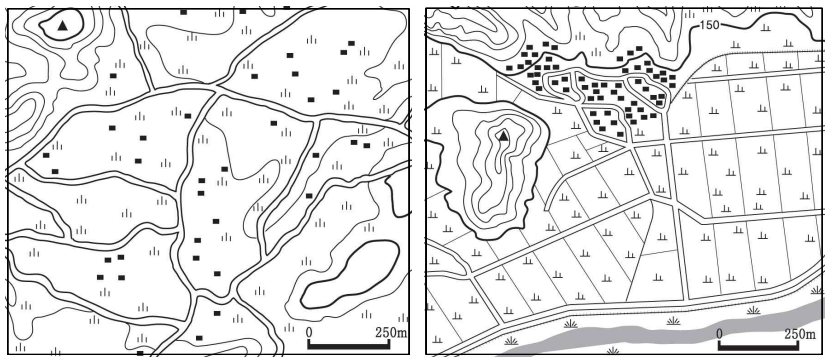

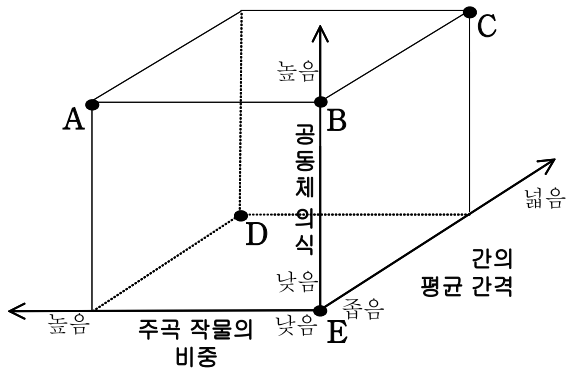

① A
② B
③ C
④ D
⑤ E

15. 다음은 모둠별 발표 내용을 정리한 것이다. 우리나라 농업의 문제점에 대한 개선 방안이 적절하지 <u>않은</u> 모둠은?

모둠 명	농업의 문제점	개선 방안
백두	휴경지의 증가	자급자족적 영농 구조 강화
금강	낮은 소득 수준	농촌 체험 마을의 활성화
설악	농촌 노동력 부족	영농의 기계화 및 과학화
태백	화학비료 과다 사용	유기농업 및 친환경 농업의 확대
한라	농산물의 수입 개방	지리적 표시제를 통한 농산물 경쟁력 강화

① 백두 ② 금강 ③ 설악 ④ 태백 ⑤ 한라

16. 표는 제조업의 지역별 특성을 나타낸 것이다. 이에 대한 해석으로 옳은 것을 <보기>에서 고른 것은? [3점]

구분	대구		충남		울산	
	2000년	2009년	2000년	2009년	2000년	2009년
사업체 수 (개)	3,025	2,869	2,004	2,901	908	1,244
종사자 수 (천 명)	108	95	122	182	128	138
출하액 (억 원)	13,687	20,064	37,877	128,147	68,091	152,252

(통계청, 2011)

<보 기>

ㄱ. 울산은 사업체당 출하액이 감소하였다.
ㄴ. 대구는 종사자 수와 출하액이 모두 증가하였다.
ㄷ. 2000년에는 울산의 노동 생산성이 충남보다 높다.
ㄹ. 충남의 사업체 수 증가는 수도권 공업 지역의 집적 불이익과 관련 있다.

① ㄱ, ㄴ ② ㄱ, ㄷ ③ ㄴ, ㄷ ④ ㄴ, ㄹ ⑤ ㄷ, ㄹ

17. 다음은 ○○시에 대한 지리 조사 계획을 정리한 내용이다. ㉠ ~ ㉤에 대한 설명으로 옳지 <u>않은</u> 것은?

◆ 주제: ○○시의 교외화에 따른 주변 지역의 변화
◆ 조사 항목
- ㉠ ○○시의 위치와 교외화 범위
- ○○시의 최근 5년간 ㉡ 인구 이동의 변화
- 주변 지역의 ㉢ 농업 생산량과 ㉣ 이용 현황 및 변화

◆ 조사 방법
- ㉤ 문헌에서 관련 자료 수집
- ○○시의 인구 증감에 관한 통계 자료 수집
- 주변 지역 토지 경관 관찰 및 ㉤ 주민들과 면담

① ㉠은 공간 정보, ㉢은 속성 정보에 해당한다.
② ㉡을 통계지도로 표현할 때는 유선도가 가장 적합하다.
③ ㉣을 기준으로 지역을 구분하면 기능 지역에 해당한다.
④ ㉤은 설문지 조사, 사진 촬영보다 대체로 먼저 실시한다.
⑤ ㉤을 통해 주민들의 직업과 소득 변화 등을 파악할 수 있다.

18. 다음은 '상권의 확대와 유통 구조의 변화'에 관한 판서의 일부이다. (가) ~ (마)와 관련된 설명으로 옳지 <u>않은</u> 것은?

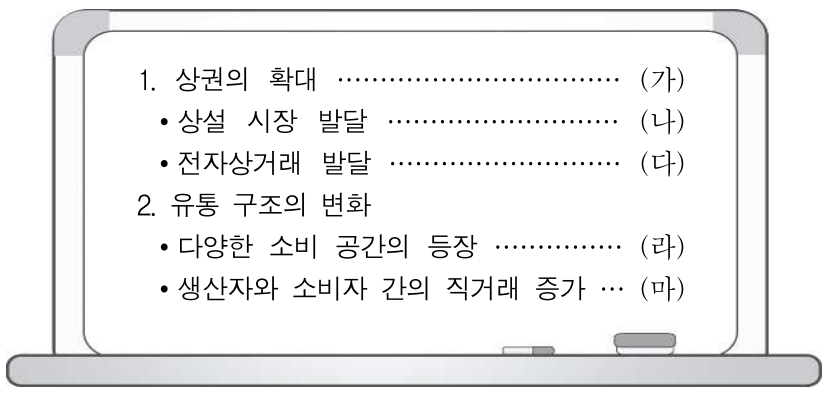

① (가) - 교통과 통신 기술의 발달 때문이다.
② (나) - 인구 증가와 구매력 향상 때문이다.
③ (다) - 도시 외곽에 물류센터가 증가하고 있다.
④ (라) - 대형 쇼핑몰, 기업형 슈퍼마켓 등이 등장한다.
⑤ (마) - 도매업 기능이 강화되어 유통 단계가 복잡해진다.

19. 자료는 우리나라의 인구 변화 추이를 나타낸 것이다. 이를 토대로 추론한 내용을 그림으로 옳게 나타낸 것은? [3점]

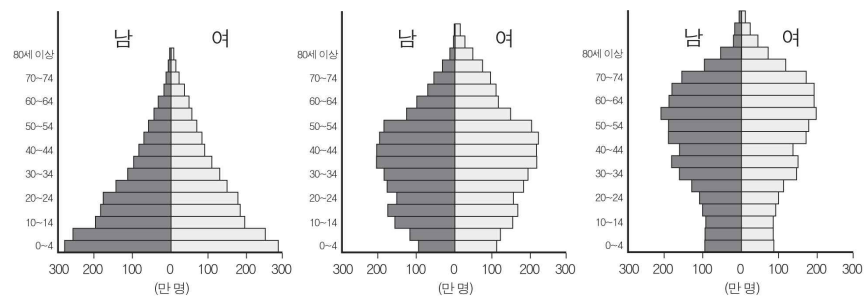

① 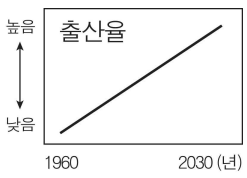

② 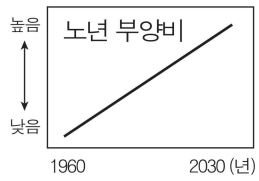

③ 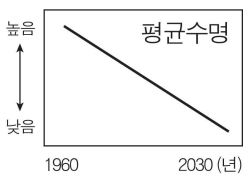

④ 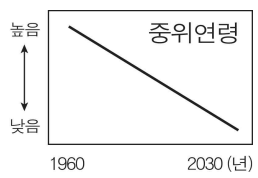

⑤ 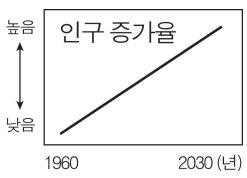

20. 자료는 작물 재배지 변화에 관한 것이다. 이와 같은 변화를 초래한 기후 현상이 지속될 때, 우리나라에서 나타날 수 있는 현상으로 옳지 <u>않은</u> 것은?

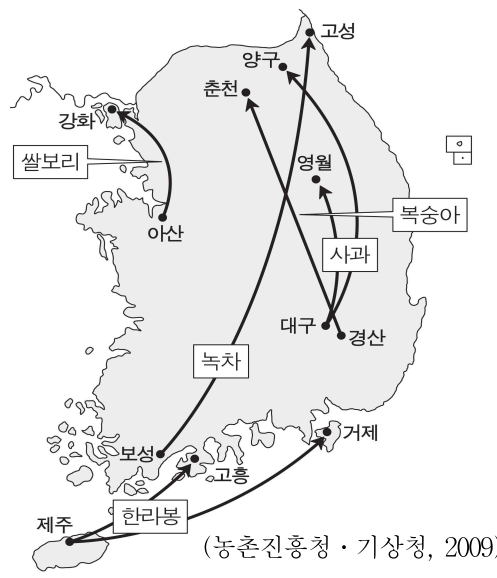

(농촌진흥청 · 기상청, 2009)

① 단풍이 드는 시기가 점차 늦어질 것이다.
② 해안 저지대가 바닷물에 잠길 위험이 커질 것이다.
③ 고랭지 농작물 재배지의 해발고도가 낮아질 것이다.
④ 말라리아와 같은 열대성 질병의 발병률이 높아질 것이다.
⑤ 대구, 명태와 같은 한류성 어족의 어획량이 감소할 것이다.

*　　사항
○ 답안지의 해당란에 필요한 내용을 정확히 기입(표시)했는지 확인하시오.