제 4 교시

직업탐구 영역(상업경제)

성명		수험 번호	

1. 다음 탄소 배출권 제도의 시행에 따라 나타날 수 있는 현상으로 적절한 것을 〈보기〉에서 고른 것은?

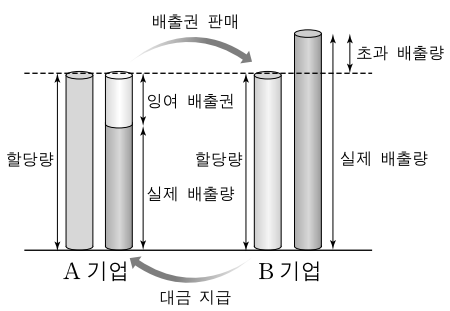

이 제도는 온실 가스를 줄이기 위해, 탄소를 할당량 이상 배출하는 기업이나 국가가 잉여 배출권을 확보한 기업이나 국가에게 탄소 배출권을 구매하도록 하는 것이다.

– 환경부(www.me.go.kr), 2010 –

〈보 기〉

ㄱ. 바젤 협약을 준수하는 기업들이 점차 증가할 것이다.
ㄴ. 탄소 배출을 줄이기 위한 대체 에너지 개발이 활성화될 것이다.
ㄷ. A 기업은 탄소 배출을 감축함으로써 환경 보호에 기여하게 될 것이다.
ㄹ. B 기업은 실제 배출량만큼 잉여 배출권을 확보할 수 있게 될 것이다.

① ㄱ, ㄴ ② ㄱ, ㄷ ③ ㄴ, ㄷ ④ ㄴ, ㄹ ⑤ ㄷ, ㄹ

2. 다음은 2008년 전자 상거래 유형별 규모이다. (가)에 대한 설명으로 옳은 것을 〈보기〉에서 고른 것은?

2008년 전자 상거래 유형별 규모

(단위: 십억 원)

(가)	B2G	B2C	C2C 등
560,255	52,266	11,359	6,207

전자 상거래 유형은 거래 주체 간의 관계에 따라 분류할 수 있는데, (가)는 전자 상거래 유형 중 거래 규모가 가장 크다.

– 통계청, 「2009년 연간 및 4/4분기 전자상거래 및 사이버쇼핑 동향조사」 –

〈보 기〉

ㄱ. 기업과 개인 간의 전자 상거래이다.
ㄴ. 이윤 추구를 목적으로 하는 경제 주체 간 전자 상거래이다.
ㄷ. ○○ (주)가 정부 기관으로부터 온라인으로 주문받은 물품을 납품한 사례가 해당된다.
ㄹ. △△ (주)가 외부의 협력업체로부터 인터넷을 통하여 부품을 구입한 사례가 해당된다.

① ㄱ, ㄴ ② ㄱ, ㄷ ③ ㄴ, ㄷ ④ ㄴ, ㄹ ⑤ ㄷ, ㄹ

3. 다음에 나타난 소매상의 각 영업 목표를 달성할 수 있는 방안으로 적절하지 않은 것은?

○ 취급 상품: 생활용품
○ 영업 목표:
- 유통 경로 단축을 통한 구매 비용 절감
- 인건비를 포함한 영업비 절감
- 단위당 이익을 낮게 책정하여 판매 증대
- 재고 비용 절감을 통한 판매 가격 인하

① 상품 광고비 절감
② 박리다매 방식 적용
③ 직거래 구매 방식 도입
④ 셀프서비스 판매 방식 확대
⑤ 상품 회전율이 낮은 상품 취급 확대

4. 다음에 나타난 세 가지 지급 수단의 공통적인 특징인 (가)에 해당하는 내용으로 옳은 것을 〈보기〉에서 고른 것은?

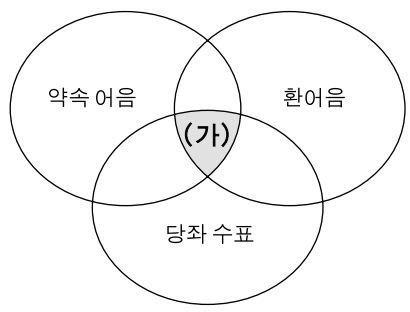

〈보 기〉

ㄱ. 부도의 위험이 있다.
ㄴ. 금전 증권에 해당된다.
ㄷ. 예금 한도 내에서 발행한다.
ㄹ. 인수 제시 및 인수 절차가 필요하다.

① ㄱ, ㄴ ② ㄱ, ㄷ ③ ㄴ, ㄷ ④ ㄴ, ㄹ ⑤ ㄷ, ㄹ

5. 다음은 사회 보험에 대한 스무고개 놀이 대화이다. (가)에 해당하는 보험으로 옳은 것은?

한 고개	4대 보험에 속합니까?	예
두 고개	가입자의 노령, 장애 등에 대하여 본인이나 가족에게 급여를 지급합니까?	아니오
세 고개	근로자의 업무상 재해에 대한 보상을 목적으로 합니까?	아니오
네 고개	근로자의 실직 시 실업 보험금을 지급합니까?	아니오
다섯 고개	그럼 (가) 입니까?	예

① 고용 보험 ② 국민 연금 ③ 산업 정책 보험
④ 국민 건강 보험 ⑤ 산업 재해 보상 보험

6. 다음은 무신용장 추심 결제 방식에 대한 수업 장면이다. (가), (나)에 대한 설명으로 옳은 것을 〈보기〉에서 고른 것은? [3점]

〈보 기〉

ㄱ. (가)조건에서 수출업자는 일람 출급 환어음을 발행하여 대금을 회수한다.
ㄴ. (나)조건에서 수입업자 거래 은행은 수출 대금에 대한 지급 확약을 해야 한다.
ㄷ. (가)는 D/A이고, (나)는 D/P이다.
ㄹ. 수출업자는 (가)조건보다 (나)조건에서 수출 대금을 빠르게 회수할 수 있다.

① ㄱ, ㄴ ② ㄱ, ㄷ ③ ㄴ, ㄷ ④ ㄴ, ㄹ ⑤ ㄷ, ㄹ

7. 다음 기존의 매매 조건에서 구매자의 요구 사항을 반영하였을 때 나타나는 매매 조건에 대한 설명으로 옳은 것을 〈보기〉에서 고른 것은? [3점]

○ **기존의 매매 조건**

· 품명: ○○ 상품
· 수량 조건: 상자당 15,000원
· 인도 시기: 후일 인도
· 대금 지급: 상환급
· 품질 결정: 통명

○ **구매자의 요구 사항**

· 상자당 10,000원으로 단가 인하
· 계약과 동시에 상품 인도
· 현재 자금 사정이 좋지 않아 상품 인수 후 대금 지급
· 인지도와 명성이 높은 상표명으로 품질 결정

〈보 기〉

ㄱ. 수량 조건은 개수 단위 계산법을 유지한다.
ㄴ. 인도 시기는 후일 인도를 유지한다.
ㄷ. 대금 지급은 후급으로 변경한다.
ㄹ. 품질 결정은 견품으로 변경한다.

① ㄱ, ㄴ ② ㄱ, ㄷ ③ ㄴ, ㄷ ④ ㄴ, ㄹ ⑤ ㄷ, ㄹ

8. 다음은 어느 국가의 연도별 경제 지표에 관한 내용이다. 이에 대한 설명으로 옳은 것만을 〈보기〉에서 있는 대로 고른 것은?

구분	GDP 성장률	$\frac{\text{수출액}}{\text{GDP}}\times 100$	$\frac{\text{수입액}}{\text{GDP}}\times 100$
2008년	3%	20%	40%
2009년	5%	40%	30%

〈보 기〉

ㄱ. 2008년은 수출 의존도가 수입 의존도보다 높다.
ㄴ. 2009년은 2008년보다 국내 총생산액이 증가하였다.
ㄷ. 2009년은 2008년보다 GDP에서 무역이 차지하는 비중이 높다.

① ㄱ ② ㄷ ③ ㄱ, ㄴ ④ ㄴ, ㄷ ⑤ ㄱ, ㄴ, ㄷ

9. 그림은 기업의 자금 조달 방식을 나타낸 것이다. (가)~(다)에 대한 설명으로 옳은 것을 〈보기〉에서 고른 것은? [3점]

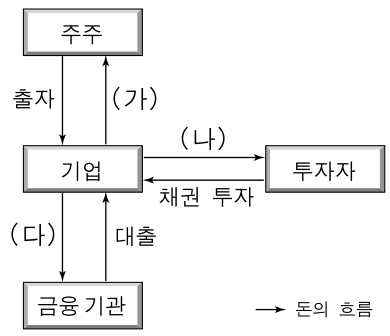

〈보 기〉

ㄱ. (가)는 기업의 타인 자본에 대한 대가이다.
ㄴ. (나)는 직접 금융으로 조달된 자금에 대한 비용이다.
ㄷ. (다)는 한국은행 정책금리에 의해 영향을 받는다.
ㄹ. (나)와 (다)는 기업 실적에 따라 지급된다.

① ㄱ, ㄴ ② ㄱ, ㄷ ③ ㄴ, ㄷ ④ ㄴ, ㄹ ⑤ ㄷ, ㄹ

10. 다음은 ○○(주)의 물류 시스템 도입 사례이다. (가)에 들어갈 내용으로 가장 적절한 것은?

○○(주)는 화주와 화물차를 언제 어디서나 쉽게 연결하는 물류 시스템을 도입하였다. 이를 통해 화물과 가까이 있는 화물차를 연결하여, 화물차가 물건을 싣지 못하고 운행되었던 기존의 문제점을 개선하여 (가) 되었다.

① 하역비를 줄이게
② 공차율을 낮추게
③ 적재 비용을 줄이게
④ 표준화된 화대를 이용하게
⑤ 개별 운송 방식을 이용하게

11. 다음과 같이 기준금리가 변동하게 된 배경으로 적절한 것을 〈보기〉에서 고른 것은? (단, 기준금리 이외의 요인은 고려하지 않는다.) [3점]

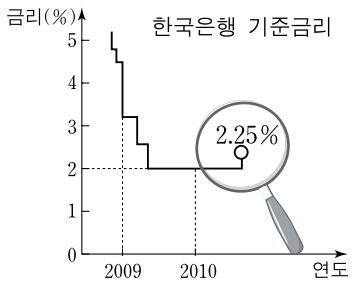

한국은행 금융통화위원회는 기준금리를 2%에서 2.25%로 전격 인상하였다.

– ○○신문, 2010년 7월 10일자 –

〈보 기〉

ㄱ. 실업률이 증가하고 있다.
ㄴ. 물가 상승 압력이 높아지고 있다.
ㄷ. 기업의 신규 투자 확대가 요구되고 있다.
ㄹ. 시중 통화량이 과도하게 증가하고 있다.

① ㄱ, ㄴ ② ㄱ, ㄷ ③ ㄴ, ㄷ ④ ㄴ, ㄹ ⑤ ㄷ, ㄹ

12. 다음은 어느 가계의 금융 자산 구성 변화를 나타낸 것이다. 변화 후에 대한 설명으로 옳은 것을 〈보기〉에서 고른 것은? [3점]

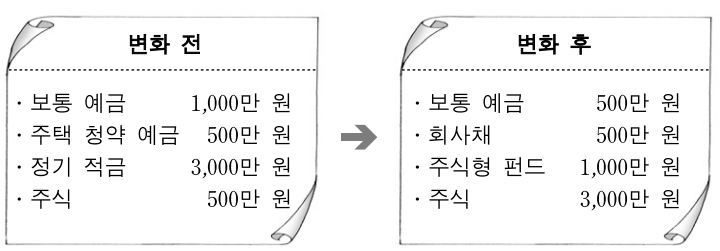

〈보 기〉

ㄱ. 저축성 예금의 금액이 증가하였다.
ㄴ. 안정성보다 수익성이 높은 금융 자산의 금액이 증가하였다.
ㄷ. 예금자보호법을 적용받는 금융 자산의 금액이 감소하였다.
ㄹ. 경영 참가권을 가질 수 있는 금융 자산의 금액이 감소하였다.

① ㄱ, ㄴ ② ㄱ, ㄷ ③ ㄴ, ㄷ ④ ㄴ, ㄹ ⑤ ㄷ, ㄹ

13. 다음은 상업의 주체와 기능에 대한 사례이다. ㉠~㉤에 대한 설명으로 옳은 것은?

㉠상품을 매매하는 ○○마트는 신선하고 품질이 우수한 과일을 판매하기 위하여 ㉡영업부장이 ㉢중개상의 소개를 받아 사과, 배 등을 매입하였다. 이 중 일부는 산지 냉장창고에 ㉣보관하고, 나머지는 물류 회사를 통하여 매장으로 ㉤운송하였다.

① ㉠은 상업의 본원적 기능에 해당된다.
② ㉡은 자기 명의로 거래를 한다.
③ ㉢은 경업금지의무가 있다.
④ ㉣은 장소적 불일치를 해소하는 기능을 한다.
⑤ ㉤은 시간적 불일치를 해소하는 기능을 한다.

14. 그래프는 각 연도별 산업 재산권 출원 건수이다. 이에 대한 설명으로 옳은 것을 〈보기〉에서 고른 것은? [3점]

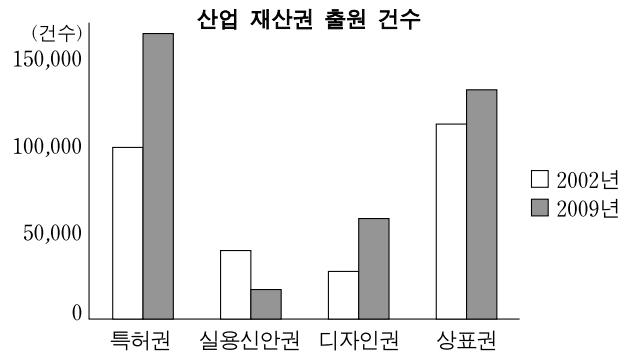

– 특허청(www.kipo.go.kr), 2010 –

〈보 기〉

ㄱ. 2002년에는 권리의 존속 기간이 설정 등록 후 15년인 산업 재산권의 출원 건수가 가장 많다.
ㄴ. 2009년에는 실용적인 고안을 보호 · 장려하기 위한 산업 재산권의 출원 건수가 가장 적다.
ㄷ. 권리의 존속 기간을 갱신할 수 있는 산업 재산권의 출원 건수는 2009년보다 2002년이 적다.
ㄹ. 타인의 상품과 식별하기 위한 기호 · 문자와 관련된 산업 재산권의 출원 건수는 2009년보다 2002년이 많다.

① ㄱ, ㄴ ② ㄱ, ㄷ ③ ㄴ, ㄷ ④ ㄴ, ㄹ ⑤ ㄷ, ㄹ

15. 다음 국제 수지 항목의 상황을 모두 충족하는 시점으로 옳은 것을 그래프의 A~E에서 고른 것은? [3점]

○ 해외 증권 투자가 속한 수지는 적자이다.
○ 운임, 보험료 등이 속한 수지는 전월 대비 흑자에서 적자로 전환되었다.
○ 해외 특허권의 자산 취득이 속한 수지는 전월 대비 흑자 규모가 확대되었다.

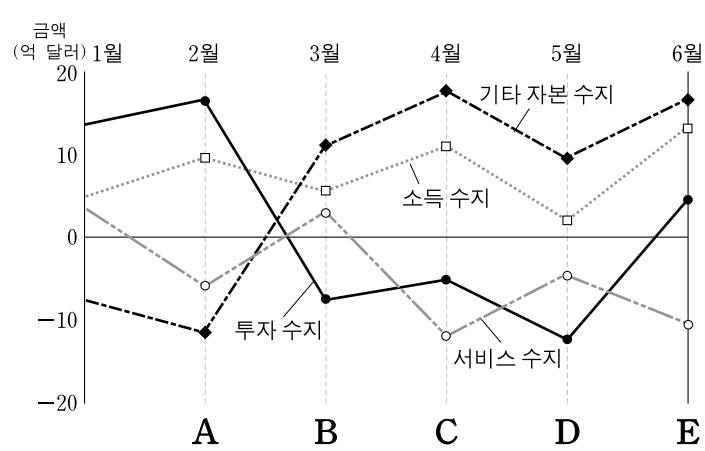

① A ② B ③ C ④ D ⑤ E

16. 그림은 경쟁 매매의 종류를 구분한 것이다. (가)~(다)에 대한 설명으로 옳은 것은?

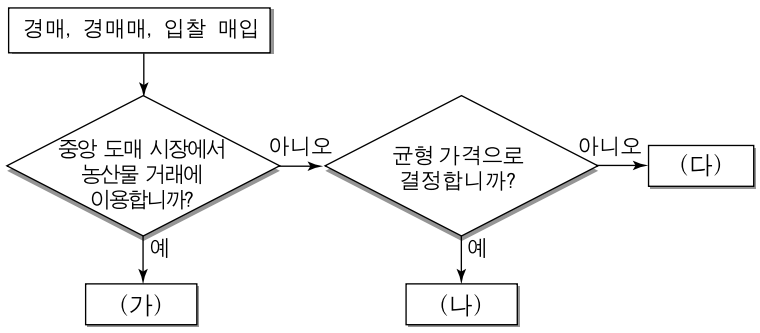

① (가)는 판매자가 다수이다.
② (나)는 주로 구두나 손짓으로 가격 경쟁을 한다.
③ (다)는 관청, 공기업 등에서 물품 구매 시 이용한다.
④ (가)와 (나)는 구매자가 1인이다.
⑤ (가)는 적하법을 사용하고, (다)는 적상법을 사용한다.

17. 그림의 정보 시스템을 도입할 때 얻을 수 있는 기대 효과로 적절하지 않은 것은?

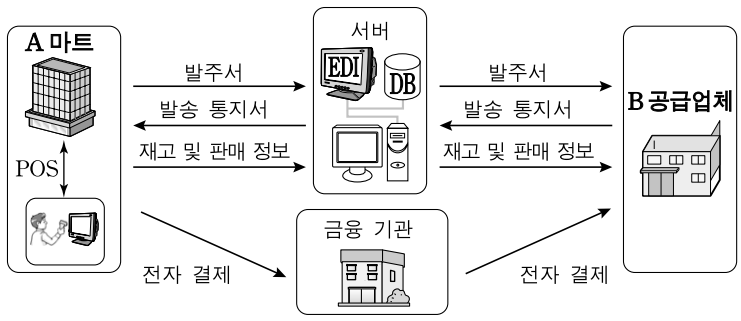

① A 마트는 재고 관리를 효율적으로 할 수 있다.
② A 마트는 발주서를 전자적으로 처리할 수 있다.
③ A 마트는 상품의 판매 현황을 실시간으로 파악할 수 있다.
④ B 공급업체는 결제 과정에서 현금 취급상의 위험을 줄일 수 있다.
⑤ B 공급업체는 비표준화된 상거래 양식의 사용 비중을 높일 수 있다.

18. 다음은 해외 진출 사례와 방식을 나타낸 것이다. (가)~(다)에 대한 설명으로 옳은 것은? [3점]

해외 진출 사례	해외 진출 방식
A 기업은 국내에서 생산한 반도체를 해외로 수출하였다.	(가)
B 기업은 해외 10여 개국의 기업과 상표 사용 계약을 체결하고 상표 사용료를 받았다.	(나)
C 기업은 해외 현지에 100% 단독 투자하여 공장을 건설한 후 현지에서 반도체를 생산, 판매하고 있다.	(다)

① (가)는 해외 직접 투자의 한 형태이다.
② (나)는 녹다운 수출 방식이다.
③ (다)는 턴키 계약 방식에 해당된다.
④ (다)는 (가)보다 무역 장벽 회피에 유리한 방식이다.
⑤ (나)는 경영 참가, (다)는 로열티 수입을 목적으로 한다.

19. 다음은 수출업자와 수입업자가 가격 조건을 협상하는 과정이다. 이에 대한 설명으로 옳은 것은? (단, 가격 조건은 인코텀즈 2000에 의하며, CPT와 CIP는 고려하지 않는다.) [3점]



① 전년도 가격 조건은 FAS조건이다.
② 결정된 가격 조건에 따른 위험의 분기점은 뉴욕항 본선이다.
③ (가)와 (나)는 C 그룹, (다)는 D 그룹 가격 조건에 속한다.
④ (가)와 (다) 조건에서 해상 보험 사고 시 보험금을 받는 자는 수입업자이다.
⑤ 상품 단가가 동일할 경우, 전년도 가격 조건이 (다)조건보다 수입업자에게 유리하다.

20. 다음과 같이 환율이 변동할 때 나타날 수 있는 현상으로 적절한 것을 〈보기〉에서 고른 것은? (단, 환율 이외의 요인은 고려하지 않는다.) [3점]

○ 미국 시장에서 한국 기업은 일본 기업과 상품 가격 경쟁을 하고 있음.
○ 환율은 다음과 같이 지속적으로 변동하고 있음.

구분	환율 변동
원/달러	환율 상승
엔/달러	환율 하락

〈보 기〉

ㄱ. 미국 시장에서 일본 상품보다 한국 상품의 가격 경쟁력이 높아질 것이다.
ㄴ. 미국으로부터의 수입량이 한국에서는 증가할 것이고, 일본에서는 감소할 것이다.
ㄷ. 한국 기업은 미달러 표시 외채 상환을 위한 환전을 앞당기는 것이 유리할 것이다.
ㄹ. 한국 기업은 현재 환율로 한 달 후에 미달러를 매도하는 계약을 체결하는 것이 유리할 것이다.

① ㄱ, ㄴ ② ㄱ, ㄷ ③ ㄴ, ㄷ ④ ㄴ, ㄹ ⑤ ㄷ, ㄹ

* 확인 사항
○ 답안지의 해당란에 필요한 내용을 정확히 기입(표기)했는지 확인하시오.