2017학년도 11월 고2 전국연합학력평가 문제지

직업탐구 영역(상업 경제)

제 4 교시 | 성명 | 수험번호 2

1. 다음은 ○○농장의 안내 표지판이다. ○○농장이 받은 인증과 관련 있는 국제 환경 협약으로 가장 적절한 것은?

> ○○농장
>
> 이곳은 온실 가스를 자발적으로 감축하여 환경 보전에 기여하고 있는 농장입니다.
>
> • 재배 농산물: 상추
> • 농림축산식품부의 저탄소 농산물 인증을 받음.

① 런던 협약 ② 바젤 협약 ③ 람사르 협약
④ 교토 의정서 ⑤ 사막화 방지 협약

2. 다음 대화 내용에 나타난 상업 주체의 공통점으로 옳은 것은?

① 타인 명의로 상거래를 한다.
② 경업 금지 의무를 준수해야 한다.
③ 자기 명의와 책임으로 상거래를 한다.
④ 거래 당사자 쌍방으로부터 수수료를 받는다.
⑤ 특정 상인에게 고용되어 대외적으로 영업 활동을 보조한다.

3. 다음은 ○○(주)의 사원 모집 공고문 일부이다. 업무 내용과 관련된 기업의 부문 활동으로 가장 적절한 것은?

> 모집 공고
>
> • 회사 현황
> 회사명: ○○(주) 업태: 도소매
> • 업무 내용
> – 신입 사원 선발 및 배치
> – 직장 내 교육 훈련 지원

① 생산 관리 ② 재무 관리 ③ 품질 관리
④ 마케팅 관리 ⑤ 인적 자원 관리

4. 다음은 특성화고등학교 학생의 현장 실습 일지 일부이다. 실습 내용에서 알 수 있는 상업의 기능으로 적절한 것을 <보기>에서 고른 것은?

현장 실습 일지

실습 일자	실습 내용
9월 4일	(오전) 오늘은 A 상품을 구매하려는 고객이 많아서 오전에만 120개를 판매하였다. (오후) 오전에 판매하고 남은 A 상품 100개를 △△창고에 보관하였다.

〈보 기〉

ㄱ. 자금 융통 기능 ㄴ. 소유권 이전 기능
ㄷ. 경제적 손실 보상 기능 ㄹ. 시간적 불일치 조절 기능

① ㄱ, ㄴ ② ㄱ, ㄷ ③ ㄴ, ㄷ
④ ㄴ, ㄹ ⑤ ㄷ, ㄹ

5. 다음 사례에서 (가), (나)에 해당하는 전자 상거래 유형으로 옳은 것은?

> (가) ○○(주)는 샤워 필터를 생산하여 전자 상거래 사이트에서 개인 소비자를 대상으로 판매하였다.
> (나) △△(주)는 전자 상거래 사이트를 개설하여 기업 고객을 대상으로 에어컨을 판매하였다.

	(가)	(나)
①	B2C	B2B
②	B2C	C2C
③	B2C	G2B
④	B2B	C2C
⑤	C2C	B2B

6. 다음 자료에서 ○○(주)가 개편한 조직 형태로 옳은 것은?

> ○○(주)는 사업 확장을 위해 그림과 같이 전문적인 지식을 가지고 각 부서의 업무를 지원하는 기획 조정실을 두고, 명령 일원화와 전문화의 원칙을 조화시킨 조직으로 개편하였다.

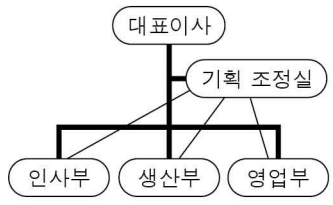

① 라인 조직 ② 기능식 조직 ③ 사업부제 조직
④ 프로젝트 조직 ⑤ 라인-스태프 조직

7. 다음은 기업의 사회적 책임에 대한 사례이다. (가), (나)에 대한 설명으로 적절한 것을 <보기>에서 고른 것은? (단, 기업의 사회적 책임은 캐롤(Archie B. Carroll)의 분류에 따른다.) [3점]

기업의 사회적 책임 사례

1. [(가)] 의 사례

○○(주)는 직원의 정규직화를 추진하여 2016년에 전 직원이 정규직이 되었다. 이로 인하여 정부가 정한 '고용 창출 100대 기업'에 선정되었다.

2. [(나)] 의 사례

△△(주)는 지난해 지역 사회에 10억 원을 기부하였고, 농촌 지역 출신 학생들에게 장학금 1억 7천만 원을 전달했다. 또한 연말에는 노인 복지 시설에 사랑의 쌀 1,000포대를 전달하였다.

〈보 기〉

ㄱ. (가)는 위법적인 행위를 하지 말아야 할 책임이다.
ㄴ. (나)는 자선적 책임이다.
ㄷ. (가)와 (나)를 통해 기업 이미지가 개선되어 매출액의 증대를 기대할 수 있다.

① ㄱ ② ㄷ ③ ㄱ, ㄴ
④ ㄴ, ㄷ ⑤ ㄱ, ㄴ, ㄷ

8. 다음은 기업의 국제화 관련 뉴스이다. ○○(주)의 해외 진출 목적으로 적절한 것만을 <보기>에서 있는 대로 고른 것은?

스포츠 의류 제조 업체인 ○○(주)는 2010년 해외 진출을 위해 A 국에 법인을 설립하였습니다. 이 업체는 현지의 저렴한 노동력을 확보하고, 현지인이 선호하는 제품 개발에 성공하였습니다. 그 결과 브랜드의 인지도가 높아져 매출이 큰 폭으로 상승하였습니다.

〈보 기〉

ㄱ. 현지 생산 자원의 확보
ㄴ. 현지 시장 요구를 반영한 신제품 개발
ㄷ. 현지 인지도를 바탕으로 판매 시장 확대

① ㄱ ② ㄷ ③ ㄱ, ㄴ
④ ㄴ, ㄷ ⑤ ㄱ, ㄴ, ㄷ

9. 다음 일기에서 밑줄 친 ㉠에 해당하는 지급 수단을 설명한 것으로 옳은 것을 <보기>에서 고른 것은? [3점]

2017년 7월 29일 토요일 맑음

친구와 함께 점심 식사를 한 뒤 계산을 하기 위해 전국의 모든 신용 카드 가맹점에서 사용 가능한 ㉠ 카드를 제시했더니 잔액이 부족해서 결제를 할 수 없었다. 현금이 없었던 나는 급하게 엄마에게 전화를 하여 내 통장 계좌로 입금을 해 달라고 부탁했고, 입금이 된 후에 이 ㉠ 카드로 결제할 수 있었다.

〈보 기〉

ㄱ. 결제 방식은 상환급이다.
ㄴ. 가맹점에서 24시간 사용이 가능하다.
ㄷ. 공중전화 카드, 교통 카드가 해당된다.
ㄹ. 미리 충전한 금액 내에서 사용이 가능하다.

① ㄱ, ㄴ ② ㄱ, ㄷ ③ ㄴ, ㄷ
④ ㄴ, ㄹ ⑤ ㄷ, ㄹ

10. 다음은 기준금리 변동 추이를 나타낸 것이다. 이와 같은 변동 추이가 지속될 때, 향후 나타날 수 있는 경제 현상으로 적절한 것을 <보기>에서 고른 것은? (단, 기준금리 외에는 고려하지 않는다.) [3점]

기준금리 변동 추이

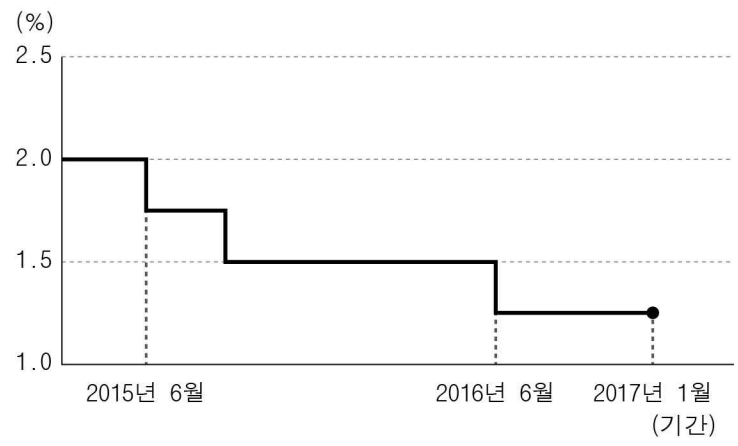

〈보 기〉

ㄱ. 시중에 통화량이 감소할 것이다.
ㄴ. 기업의 대출 상환 부담이 줄어들 것이다.
ㄷ. 화폐 가치는 하락하고, 물가는 상승할 것이다.
ㄹ. 요구불 예금의 이자율은 지속적으로 상승할 것이다.

① ㄱ, ㄴ ② ㄱ, ㄷ ③ ㄴ, ㄷ
④ ㄴ, ㄹ ⑤ ㄷ, ㄹ

11. 다음은 사업 계획서의 일부이다. 이를 통해 알 수 있는 기업 형태에 대한 설명으로 옳은 것만을 <보기>에서 있는 대로 고른 것은? [3점]

사업 계획서

1. 사업명: 신제품 개발
2. 사업 기간: 2017. 1. 1. ~ 2019. 12. 31.
3. 자금 조달 방법: 보통주 3,000만 주 발행

〈 보 기 〉

ㄱ. 무한 책임 사원이 경영에 참여한다.
ㄴ. 지분 양도 시 전 사원 동의를 거쳐야 한다.
ㄷ. 운영 기관에는 주주 총회, 이사회, 감사가 있다.

① ㄱ ② ㄷ ③ ㄱ, ㄴ
④ ㄴ, ㄷ ⑤ ㄱ, ㄴ, ㄷ

12. 다음은 선생님과 졸업생의 대화이다. (가)에 해당하는 사회 보험에 대한 설명으로 옳은 것은? [3점]



① 근로자가 업무상 사고로 입은 재해를 보상한다.
② 근로자의 고용 안정과 직업 능력 개발 등을 위한 장려금을 지원한다.
③ 피보험자와 그의 가족이 질병이나 부상, 사망할 경우 보험 급여를 지급한다.
④ 신용 위험을 감소시키기 위해 계약상 또는 법률상의 채무 이행에 따른 손해를 보증한다.
⑤ 노후를 대비하여 근로자 본인이나 유족의 기본 생활을 유지하기 위한 목적으로 운영된다.

13. 다음은 A 학생의 직업 선택 과정을 나타낸 것이다. A 학생이 선택할 수 있는 직업 유형 (가)와 관련된 설명으로 옳은 것은? [3점]

자기 이해	◦ 진로 적성 검사를 통해 유통 분야가 적성에 맞는다는 것을 인식함. ◦ 취득한 자격증: 유통 관리사 3급, 경매사(청과)	
↓		
직업 탐색 유형	1안	◦ 백화점, 대형 마트의 판매 담당
	2안	◦ 농수산물 중앙 도매 시장의 경매 담당
↓		
직업 선택	(가) 을 선택	

① 1안을 선택할 경우 추상적 시장에서 근무하게 된다.
② 1안을 선택할 경우 어음 발행 및 재할인 업무를 담당하게 된다.
③ 2안을 선택할 경우 재무 업무를 담당하게 된다.
④ 2안을 선택할 경우 조직적 시장에서 근무하게 된다.
⑤ 2안을 선택할 경우 직접 매매 방법으로 거래하게 된다.

14. 다음은 ○○(주)가 클레임을 해결한 사례이다. 이에 나타난 분쟁 해결 방법으로 옳은 것은?

○○(주)는 A국의 △△사에 도착한 상품의 수량이 부족하다는 이유로 클레임 통보를 받았다. 클레임의 원인을 조사한 결과, 배송 중에 상품 수량이 과부족 용인 조건을 초과하여 유실된 것으로 파악되었다. 계약 조건에 따라 부족한 수량을 추가 발송하기로 상호 합의하여 클레임을 해결하였다.

① 소송 ② 알선 ③ 조정
④ 중재 ⑤ 화해

15. 다음은 ○○(주)의 매매 계약서 일부이다. 이를 통해 알 수 있는 매매 계약 조건에 대한 설명으로 옳은 것은? [3점]

매매 계약서

○○(주)를 판매자로 하고 △△(주)를 매입자로 하여 당사자 간에 다음과 같이 매매 계약을 체결합니다.

품명	수량(개)	단가	금액
건전지	10,000	US $9 CIF New York	US $90,000

- 보험 조건: ICC(B)
- 대금 결제 조건: at sight Draft L/C

① 수량 조건은 중량 단위이다.
② 상품 인도는 도착지 인도 조건이다.
③ 보험 조건은 전손담보 조건으로 한다.
④ 도착항까지의 운임과 보험료는 판매자가 부담한다.
⑤ 대금 결제 조건은 상품 인도 후 현금으로 결제하는 방식이다.

16. 다음은 무역의 종류에 대한 수업 장면이다. (가)에 해당하는 무역으로 옳은 것은?



① 중계 무역 ② 중개 무역 ③ 통과 무역
④ 삼각 무역 ⑤ 스위치 무역

17. 다음은 ○○(주)가 판매할 상품의 가격 구성 요소이다. 이 상품의 이폭을 계산한 금액으로 옳은 것은? (단, 제시된 자료 외에는 고려하지 않는다.)

• 매입 상품: 청소기	• 매입 수량: 1개
• 매입 가격: 200,000원 • 직원 급여: 4,000원	• 매입 비용: 3,000원 • 희망 순이익: 40,000원

① 4,000원 ② 7,000원 ③ 44,000원
④ 47,000원 ⑤ 203,000원

18. 다음은 갑 ~ 병의 금융 상품별 투자 금액을 나타낸 것이다. 이에 대한 설명으로 옳은 것만을 <보기>에서 있는 대로 고른 것은? [3점]

(단위: 만 원)

구 분	갑	을	병
은행 정기 예금	2,700	0	1,500
주식	300	3,000	0
국·공채	0	0	1,500
계	3,000	3,000	3,000

〈 보 기 〉
ㄱ. 갑은 예금자 보호 적용 금융 상품 투자 비중이 높다.
ㄴ. 을은 시세 차익을 기대할 수 있는 금융 상품에 투자했다.
ㄷ. 갑, 을, 병은 모두 원금 손실 가능성이 낮은 금융 상품에 투자했다.

① ㄱ ② ㄷ ③ ㄱ, ㄴ
④ ㄴ, ㄷ ⑤ ㄱ, ㄴ, ㄷ

19. 다음은 원/달러 환율 변동 추이를 나타낸 것이다. 이와 같은 변동 추이가 지속될 때, 향후 나타날 수 있는 경제 현상으로 가장 적절한 것은? (단, 환전을 전제로 하고, 환율 외에는 고려하지 않는다.) [3점]

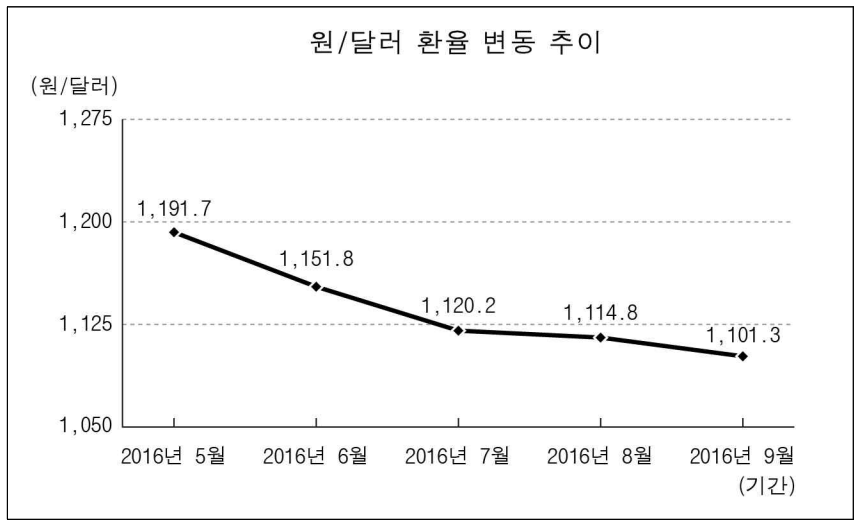

① 달러 대비 원화 가치가 하락할 것이다.
② 수입 물가 상승으로 수입이 감소할 것이다.
③ 달러 표시 수출 제품의 가격이 하락할 것이다.
④ 한국인의 미국 여행 경비 부담이 늘어날 것이다.
⑤ 국내 기업의 달러 표시 매출 채권의 가치가 감소할 것이다.

20. 다음은 A ~ D 국 간의 경제 협정 체결 상태를 나타낸 것이다. 협정 체결 후 나타날 수 있는 현상으로 적절한 것은? [3점]

○ A ~ D 국은 경제 협정을 체결하기 전부터 무역 거래를 하였다.
○ 아래 그림과 같이 체결한 경제 협정이 각국에서 발효되었다.

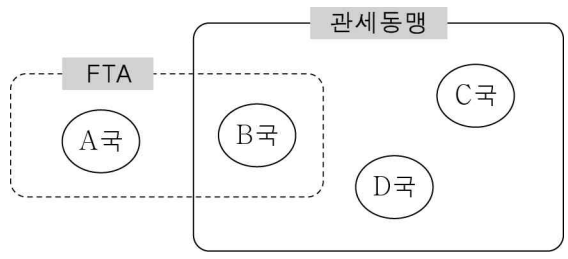

① A 국과 B 국 간에는 수출입 물품의 관세가 인하될 것이다.
② A 국과 C 국 간에는 협정 대상 품목에 대해 수량 제한이 철폐될 것이다.
③ A 국은 D 국으로 수출하는 품목에 대해 무관세를 적용받을 것이다.
④ B 국은 C 국, D 국과 생산 요소의 자유로운 이동이 가능한 공동 시장을 형성할 것이다.
⑤ B 국, C 국, D 국은 공동 경제 정책을 수립할 것이다.

※ 확인 사항
답안지의 해당란에 필요한 내용을 정확히 기입(표기)했는지 확인하시오.