• 수학 영역 •

정 답

1	③	2	①	3	④	4	③	5	②
6	②	7	①	8	①	9	⑤	10	④
11	②	12	③	13	②	14	③	15	⑤
16	⑤	17	④	18	⑤	19	①	20	③
21	④	22	12	23	2	24	28	25	106
26	503	27	13	28	60	29	50	30	150

해 설

1. [출제의도] 복소수 계산하기

$z=2+3i$ 이면 $\overline{z}=2-3i$ 이므로 $z+\overline{z}=4$ 이다.

2. [출제의도] 다항식 계산하기

$A=x^2+2x-1$, $B=x^2-x+3$ 에 대하여
$2A=2x^2+4x-2$ 이므로
$2A-B=x^2+5x-5$ 이다.

3. [출제의도] 나머지정리 이해하기

$f(x)=x^4+2x^3+3x^2+4x+5$ 라 하면
$f(x)$ 를 $x-1$로 나눈 나머지는 $f(1)$ 이므로
$f(1)=1+2+3+4+5=15$ 이다.
따라서 나머지는 15 이다.

4. [출제의도] 이차방정식의 근과 계수의 관계 이해하기

이차방정식 $x^2+ax-2=0$ 의 두 근의 곱이 -2 이므로 $b=-2$ 이다.
두 근이 1과 -2 이므로 두 근의 합은 -1 이다.
따라서 $a=1$ 이므로 $a-b=3$ 이다.

5. [출제의도] 이차함수의 그래프와 x축의 위치 관계 추론하기

이차함수의 그래프와 x 축이 만나지 않으려면 이차방정식 $x^2-6x+a=0$ 이 서로 다른 두 허근을 가져야 한다. 이차방정식의 판별식을 D 라 하면
$\frac{D}{4}=9-a<0$ 이므로 $a>9$ 이다.
따라서 정수 a 의 최솟값은 10 이다.

6. [출제의도] 다항식의 계산과 항등식 문제 해결하기

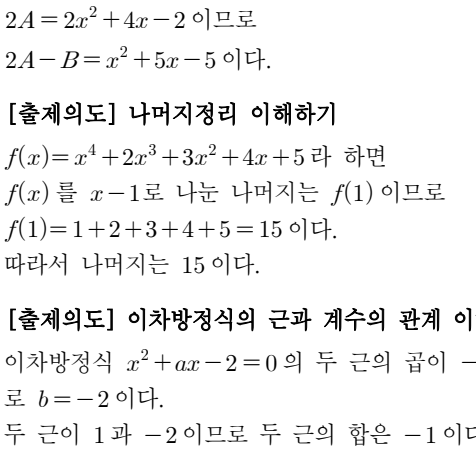

각 변의 3개의 식의 합은 x^3-x^2+2x+1 이므로
$P(x)+x^3+x^2+x^2+1=x^3-x^2+2x+1$ 과
$Q(x)+x^3-3x^2+x^2+1=x^3-x^2+2x+1$ 에서
$P(x)=-3x^2+2x$, $Q(x)=x^2+2x$ 이다.
따라서 $P(x)+Q(x)=-2x^2+4x$ 이다.

7. [출제의도] 다항식의 나눗셈 문제 해결하기

$f(x)$ 를 x^2+1 로 나누었을 때의 몫을 $Q(x)$ 라 하면 나머지가 $x+1$ 이므로
$f(x)=(x^2+1)Q(x)+x+1$ 로 나타낼 수 있고,
$\{f(x)\}^2$
$=(x^2+1)^2\{Q(x)\}^2+2(x^2+1)(x+1)Q(x)+(x+1)^2$
$=(x^2+1)\{(x^2+1)\{Q(x)\}^2+2(x+1)Q(x)+1\}+2x$
이다.
따라서 $\{f(x)\}^2$ 을 x^2+1 로 나눈 나머지는
$R(x)=2x$ 이고 $R(3)=6$ 이다.

8. [출제의도] 복소수 계산하기

방정식 $2x^2-2x+1=0$ 의 근은 $x=\frac{1\pm i}{2}$ 이다.

이때, $\alpha=\frac{1+i}{2}$ 라 하면 $\alpha^2=\frac{1}{2}i$ 이다.

$\alpha^4=\left(\frac{1}{2}i\right)^2=-\frac{1}{4}$

$\alpha^4-\alpha^2+\alpha=-\frac{1}{4}-\frac{1}{2}i+\frac{1+i}{2}=\frac{1}{4}$

$\alpha=\frac{1-i}{2}$ 인 경우도 마찬가지로 성립한다.

따라서 $\alpha^4-\alpha^2+\alpha=\frac{1}{4}$ 이다.

[다른 풀이]

$\alpha^2=\alpha-\frac{1}{2}$ 이므로 $\alpha^4=\left(\alpha-\frac{1}{2}\right)^2=\alpha^2-\alpha+\frac{1}{4}$

$\alpha^4-\alpha^2+\alpha=\frac{1}{4}$ 이다.

9. [출제의도] 복소수의 성질 이해하기

$z=x^2-(5-i)x+4-2i$
$=(x^2-5x+4)+(x-2)i$ 이고
$\overline{z}=-z$ 가 성립하려면 z 의 실수부분이 0 이어야 한다.
z 의 실수부분이 x^2-5x+4 이므로
$x^2-5x+4=0$ 의 근은 $x=1$, 4 이다.
따라서 모든 실수 x 값의 합은 5 이다.

10. [출제의도] 다항식의 나눗셈 문제 해결하기

조립제법을 이용하면

$\frac{1}{3}$	3	-7	5	1
		1	-2	1
	3	-6	3	2

위의 조립제법에 의하여
$3x^3-7x^2+5x+1=\left(x-\frac{1}{3}\right)(3x^2-6x+3)+2$
$=(3x-1)(x^2-2x+1)+2$
이다.
(가) $=3x^2-6x+3$
(나) $=x^2-2x+1$ 이므로
$f(x)=3x^2-6x+3$
$g(x)=x^2-2x+1$ 이다.
따라서 $f(2)+g(2)=4$ 이다.

11. [출제의도] 곱셈공식을 이용하여 식의 값 추론하기

$x^3-y^3=(x-y)^3+3xy(x-y)$ 이므로
$x-y=2$, $x^3-y^3=12$ 를 대입하면,
$12=2^3+3xy\times 2$
$6xy=4$ 이다.
따라서 $xy=\frac{2}{3}$ 이다.

12. [출제의도] 이차함수 이해하기

직선 $y=-x+a$ 가 이차함수 $y=x^2+bx+3$ 의 그래프에 접하므로
이차방정식 $x^2+(b+1)x+3-a=0$ 이 중근을 갖는다.
이차방정식의 판별식을 D 라 하면
$D=(b+1)^2-4(3-a)=0$ 이고
a 를 b 에 대하여 정리하면
$a=-\frac{1}{4}(b+1)^2+3$ 이므로
실수 a 의 최댓값은 3 이다.

13. [출제의도] 다항식의 성질을 이용하여 실생활 문제 해결하기

실린더의 개수가 M인 두 자동차 A, B의 보어를 각각 R_A, R_B라 하고,
스트로크를 각각 H_A, H_B라 하자.
$R_A=\frac{2}{3}R_B$, $H_A=\frac{9}{8}H_B$이므로

$W_A=\pi\left(\frac{R_A}{2}\right)^2\frac{H_AM}{1000}=\pi\left(\frac{\frac{2}{3}R_B}{2}\right)^2\frac{\frac{9}{8}H_BM}{1000}=\frac{1}{2}W_B$

따라서 $\frac{W_A}{W_B}=\frac{1}{2}$ 이다.

14. [출제의도] 이차함수의 최솟값 문제 해결하기

ⅰ) $p=-1$일 때, $f(x)=x^2+4x$이므로 $0\le x\le 2$에서 최솟값은 0이다. $g(-1)=0$

ⅱ) $p=\frac{1}{2}$일 때, $f(x)=x^2-2x$이므로 $0\le x\le 2$

에서 최솟값은 -1이다. $g\left(\frac{1}{2}\right)=-1$

따라서 $g(-1)+g\left(\frac{1}{2}\right)=-1$

15. [출제의도] 항등식 문제 해결하기

(가), (나)에 의하여,
$4x(x+1)f(x)=x^3+ax^2+2x+b$ 이다.
ⅰ) 양변에 $x=0$ 을 대입하면 $b=0$
ⅱ) 양변에 $x=-1$ 을 대입하면 $a=3$
따라서 $4x(x+1)f(x)=x^3+3x^2+2x$
$=x(x+1)(x+2)$
항등식의 성질에 의하여 $f(x)=\frac{1}{4}x+\frac{1}{2}$ 이다.

조건 (가)에 의해 $g(x)=\frac{1}{4}x^3+\frac{1}{2}x^2$ 이다.

따라서 $g(x)$ 를 $x-4$ 로 나눈 나머지는 $g(4)=24$ 이다.

[다른 풀이]

(가), (나)에 의하여,
$4x(x+1)f(x)=x^3+ax^2+2x+b$ 이다.
ⅰ) 양변에 $x=0$ 을 대입하면 $b=0$
ⅱ) 양변에 $x=-1$ 을 대입하면 $a=3$
따라서 $4x(x+1)f(x)=x^3+3x^2+2x$
$=x(x+1)(x+2)$
양변에 $x=4$ 를 대입하면
$80f(4)=120$ 이므로
$f(4)=\frac{3}{2}$ 이고, $g(4)=16f(4)=24$ 이다.

16. [출제의도] 이차함수와 이차방정식의 관계 추론하기

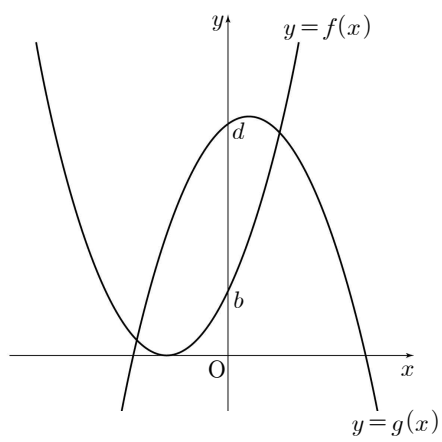

ㄱ. $y=f(x)$ 의 그래프가 x 축에 접하므로
방정식 $f(x)=0$ 의 판별식 $D=a^2-4b=0$ 이다.

ㄴ. ㄱ에 의하여 $b=\frac{a^2}{4}$ 이므로 $a^2-4d=4b-4d$ 이다.

$b-d<0$ 이므로 $a^2-4d<0$ 이다.

ㄷ. 두 그래프가 서로 다른 두 점에서 만나므로 이차방정식 $f(x)=g(x)$ 는 서로 다른 두 실근을 갖는다.

$x^2+ax+b=-x^2+cx+d$

$2x^2+(a-c)x+b-d=0$의 판별식

$D=(a-c)^2-8(b-d)>0$ 이다.

따라서 옳은 것은 ㄱ, ㄴ, ㄷ이다.

17. [출제의도] 이차함수의 그래프와 직선의 교점 이해하기

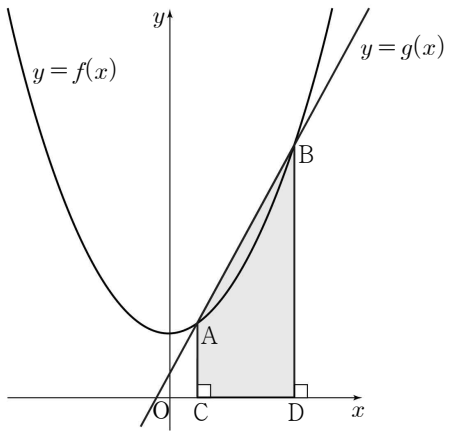

두 함수 $y=f(x)$ 와 $y=g(x)$ 의 그래프의 교점의 x 좌표를 구하면

$x^2+n^2=2nx+1$, $x^2-2nx+n^2-1=0$ 이고

$x=n-1$ 또는 $x=n+1$ 이다.

따라서

점 $\mathrm{A}(n-1,\ 2n^2-2n+1)$, $\mathrm{B}(n+1,\ 2n^2+2n+1)$

라 하면 $\mathrm{C}(n-1,\ 0)$, $\mathrm{D}(n+1,\ 0)$ 이다.

사각형 ACDB 의 넓이는

$\frac{1}{2}(\overline{\mathrm{AC}}+\overline{\mathrm{BD}})\times\overline{\mathrm{CD}}=\frac{1}{2}(4n^2+2)\times 2=4n^2+2$ 이다.

따라서 문제의 조건을 만족시키는 자연수 n 은

$4n^2+2=66$, $n^2=16$ 이므로 $n=4$ 이다.

18. [출제의도] 이차함수의 최댓값 이해하기

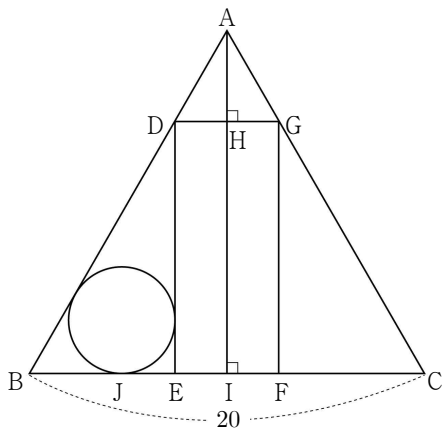

점 A 에서 선분 DG, 선분 BC 에 내린 수선의 발을 각각 H, I 라 하고, 원과 선분 BC 와의 교점을 J 라 하자.

선분 DH 의 길이를 $a\ (0<a<10)$라 하면 선분 AH 의 길이는 $\sqrt{3}a$ 이고 선분 DE 의 길이는 $10\sqrt{3}-\sqrt{3}a$ 이다.

직사각형 DEFG 의 넓이를 S라 하면

$S=2a(10\sqrt{3}-\sqrt{3}a)=-2\sqrt{3}(a-5)^2+50\sqrt{3}$

따라서 $a=5$ 일 때 직사각형 DEFG 의 넓이는 최대이다.

원의 반지름의 길이를 b라 하면

$\overline{\mathrm{EI}}=a$, $\overline{\mathrm{JE}}=b$, $\overline{\mathrm{BJ}}=\sqrt{3}b$ 이므로

$a+(1+\sqrt{3})b=10$ 이다.

$a=5$ 일 때 $b=\frac{5(\sqrt{3}-1)}{2}$ 이므로 원의 둘레는

$5(\sqrt{3}-1)\pi$ 이다.

p, q 는 유리수이므로 $p=5$, $q=-5$ 이고

$p^2+q^2=50$ 이다.

19. [출제의도] 이차함수를 이용한 문제 해결하기

$f(x)=x^2-x+k$라 하면

방정식 $f(x)=x+1$ 의 두 실근이 $x=\alpha$, β 이므로

$y=f(x)$ 의 그래프와 직선 $y=x+1$ 은

$\mathrm{A}(\alpha,\ f(\alpha))$, $\mathrm{C}(\beta,\ f(\beta))$ 에서 만난다.

직선 $y=x+1$ 의 기울기는 1 이므로 삼각형 ABC 는 직각 이등변삼각형이며 $f(\alpha)=\alpha+1$, $f(\beta)=\beta+1$ 이다.

삼각형의 넓이는 $(\beta-\alpha)^2\times\frac{1}{2}=8$ 이고, $\alpha<\beta$ 이므로 $\beta-\alpha=4$ 이다.

한편, 근과 계수의 관계에 의해 $\alpha+\beta=2$ 이므로

$\alpha=-1$, $\beta=3$ 이다.

따라서 $k=-2$ 이므로 $f(x)=x^2-x-2$,

$f(6)=6^2-6-2=28$ 이다.

20. [출제의도] 이차함수의 최댓값, 최솟값 추론하기

이차방정식 $-x^2+11x-10=-x+10$ 의 근은

$x=2$, 10 이므로 두 점 $(2,\ 8)$ 과 $(10,\ 0)$ 에서 두 그래프가 만난다.

$\mathrm{A}(t,\ -t+10)$, $\mathrm{B}(t,\ -t^2+11t-10)$

라 하면 선분 AB 의 길이는

$-t^2+11t-10-(-t+10)=-t^2+12t-20$ 이다.

ⅰ) $2<t<\frac{11}{2}$ 인 경우

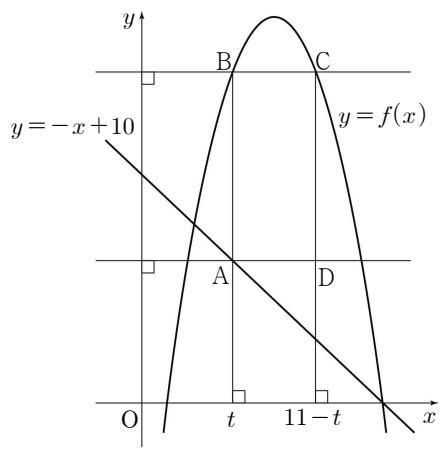

선분 BC 의 길이는 $2\times\left(\frac{11}{2}-t\right)=11-2t$ 이다.

직사각형 BADC 의 둘레의 길이는

$2(-t^2+10t-9)=-2(t-5)^2+32$ 이다.

$2<t<\frac{11}{2}$ 에서 직사각형 BADC 의 둘레의 길이의 최댓값은 32 이다.

ⅱ) $\frac{11}{2}<t<10$ 인 경우

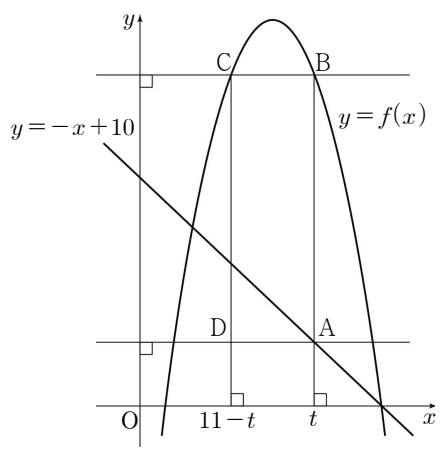

선분 BC 의 길이는 $2\times\left(t-\frac{11}{2}\right)=2t-11$ 이다.

직사각형 ABCD 의 둘레의 길이는

$2(-t^2+14t-31)=-2(t-7)^2+36$ 이다.

$\frac{11}{2}<t<10$ 에서 직사각형 ABCD 의 둘레의 길이의 최댓값은 36 이다.

따라서 직사각형 ABCD 의 둘레의 길이의 최댓값은 36 이다.

21. [출제의도] 나머지정리 이해하기

(가)에 의하여 $f(x)$ 를 $x+2$, x^2+4 로 나누었을 때의 몫을 각각 $Q_1(x)$, $Q_2(x)$ 라고 하면 나머지가 $3p^2$ 으로 같으므로

$f(x)=(x+2)Q_1(x)+3p^2$

$\quad=(x^2+4)Q_2(x)+3p^2$ 이다.

사차항의 계수가 1인 $f(x)$ 에서는 $Q_1(x)$ 는 x^2+4 를 인수로 갖고 $Q_2(x)$ 는 $x+2$ 를 인수로 가져야 하므로

$Q_1(x)$ 와 $Q_2(x)$ 의 공통인수를 $x+a$ 라 하면

$f(x)=(x+2)(x^2+4)(x+a)+3p^2$ 이다.

(나)에 의하여 $f(1)=f(-1)$ 이므로 $a=-2$ 이고

$f(x)=x^4-16+3p^2$ 이다.

(다)에 의하여 $f(\sqrt{p})=0$ 이므로

$p^2+3p^2-16=0$, $p^2=4$ 이다.

따라서 p 는 양수이므로 $p=2$ 이다.

22. [출제의도] 복소수 계산하기

$i+2i^2+3i^3+4i^4+5i^5=i-2-3i+4+5i=2+3i$

따라서 $a=2$, $b=3$ 이므로 $3a+2b=12$ 이다.

23. [출제의도] 다항식 계산하기

$(3x+ay)^3=27x^3+27ax^2y+9a^2xy^2+a^3y^3$ 에서

x^2y 의 계수는 $27a$ 이다.

따라서 $a=2$ 이다.

24. [출제의도] 인수분해를 이용하여 문제 해결하기

x^3+1 을 $x-3$ 으로 나누었을 때 몫과 나머지를 각각 $Q(x)$, R라 하면

$x^3+1=(x-3)Q(x)+R$ 이다.

$x=3$ 을 대입하면 $R=27+1=28$ 이다.

$x=2020$를 대입하면

$2020^3+1=2017Q(2020)+28$ 이다.

$(2020+1)(2020^2-2020+1)=2020^3+1$ 이므로

$(2020+1)(2020^2-2020+1)$를 2017 로 나누었을 때 나머지는 28 이다.

25. [출제의도] 나머지정리 이해하기

$f(x)+2$ 는 $x+2$ 로 나누어떨어지므로

$f(x)+2=(x+2)(x+k)$ (k 는 상수) …… ㉠

라 할 수 있다.

$f(x)-2$ 는 $x-2$ 로 나누어떨어지므로 $f(2)=2$ 이다.

㉠의 식에 $x=2$ 를 대입하면

$f(2)+2=4(2+k)$ 이므로 $k=-1$ 이다.

$f(x)=(x+2)(x-1)-2$ 이므로

$f(10)=106$ 이다.

26. [출제의도] 이차방정식 이해하기

$f(x)=0$ 의 두 근을 α, β 라 하면,

$\alpha+\beta=16$ 이다.

$f(2020-8x)=0$ 의 두 근을 α', β' 이라 하면

$2020-8\alpha'=\alpha$, $2020-8\beta'=\beta$

$\alpha'=\frac{2020-\alpha}{8}$, $\beta'=\frac{2020-\beta}{8}$

$f(2020-8x)=0$ 의 두 근의 합 $\alpha'+\beta'$ 은

$\alpha'+\beta'=505-\frac{1}{8}(\alpha+\beta)=505-2=503$

27. [출제의도] 이차함수의 그래프와 직선의 위치 관계를 이용하여 문제 해결하기

A의 x좌표를 α, B의 x좌표를 β라고 하자.

α, β는 $x^2-x-k=0$의 두 근이므로 근과 계수의 관계에 의하여 $\alpha+\beta=1$, $\alpha\beta=-k$이다.
$\alpha>0$, $\beta<0$이므로
$S_1=\frac{1}{2}\alpha^3$, $S_2=-\frac{1}{2}\beta^3$이다.
$S_1-S_2=\frac{1}{2}(\alpha^3+\beta^3)=20$이고
$\alpha^3+\beta^3=(\alpha+\beta)^3-3\alpha\beta(\alpha+\beta)=40$이다.
$\alpha+\beta=1$에서 $\alpha\beta=-13$이므로 $k=13$

28. [출제의도] 이차함수 추론하기

$f(x)=-x^2+px-q=-\left(x-\frac{p}{2}\right)^2+\frac{p^2}{4}-q$
(가)에 의하여 함수 $f(x)$의 그래프가 x축에 접하므로 $\frac{p^2}{4}-q=0$이다.
따라서 $q=\frac{p^2}{4}$, $f(x)=-\left(x-\frac{p}{2}\right)^2$
$f(x)$의 꼭짓점의 x좌표가 $\frac{p}{2}$이므로
(나)에 의하여 $-p\le x\le p$에서 $f(x)$의 최솟값은 $f(-p)$이다.
$f(-p)=-\frac{9p^2}{4}=-54$이고 $p^2=24$이다.
$q=\frac{p^2}{4}$이므로 $q=6$이고, 따라서 $p^2+q^2=60$이다.

29. [출제의도] 이차방정식의 근 이해하기

꼭짓점 E에서 변 AD에 내린 수선의 발을 L이라 하고 $\overline{\mathrm{JL}}=x\ (x>0)$라 하자.
△EJI는 직각이등변삼각형이므로 $\overline{\mathrm{EL}}=x$이고
△EJI의 넓이는 x^2이다.
$\overline{\mathrm{AJ}}=1-x$이므로 △AKJ의 넓이는 $\frac{(1-x)^2}{2}$이다.
△AKJ의 넓이가 △EJI의 넓이의 $\frac{3}{2}$배이므로
$\frac{(1-x)^2}{2}=\frac{3}{2}x^2$, $2x^2+2x-1=0$이고,
$x=\frac{-1+\sqrt{3}}{2}\ (x>0)$이다.
$\overline{\mathrm{OE}}=\sqrt{2}k$이고,
$\overline{\mathrm{OE}}=\overline{\mathrm{OL}}+\overline{\mathrm{EL}}=1+\frac{-1+\sqrt{3}}{2}=\frac{1+\sqrt{3}}{2}$
이므로 $\sqrt{2}k=\frac{1+\sqrt{3}}{2}$이다.
$k=\frac{\sqrt{2}+\sqrt{6}}{4}$이므로 $p=q=\frac{1}{4}$이고
$100(p+q)=50$이다.

30. [출제의도] 복소수의 성질을 이용하여 문제 해결하기

$\left\{i^n+\left(\frac{1}{i}\right)^{2n}\right\}^m=\{i^n+(-i)^{2n}\}^m=\{i^n+(-1)^n\}^m$
$f(n)=i^n+(-1)^n$이라 하자.
ⅰ) $n=4k-3$ (k는 자연수)일 때
$f(n)=i-1$이고
$\{f(n)\}^4=-2^2$, $\{f(n)\}^{12}=-2^6$, $\{f(n)\}^{20}=-2^{10}$, …
이므로 순서쌍 (m,n)은
$(4,n)$, $(12,n)$, $(20,n)$, $(28,n)$, $(36,n)$, $(44,n)$
6개이다.
이때 50 이하의 자연수 $n=1$, 5, 9, …, 45, 49는 13개이므로 만족하는 순서쌍 (m,n)의 개수는 78개이다.
ⅱ) $n=4k-1$ (k는 자연수)일 때
$f(n)=-i-1$이고
$\{f(n)\}^4=-2^2$, $\{f(n)\}^{12}=-2^6$, $\{f(n)\}^{20}=-2^{10}$, …
이므로 순서쌍 (m,n)은
$(4,n)$, $(12,n)$, $(20,n)$, $(28,n)$, $(36,n)$, $(44,n)$
6개이다.
이때 50 이하의 자연수 $n=3$, 7, 11, …, 47은 12개이므로 만족하는 순서쌍 (m,n)의 개수는 72개이다.
ⅲ) $n=4k-2$, $n=4k$ (k는 자연수)일 때
$f(n)$은 0 또는 2이므로 $\{f(n)\}^m\ge 0$이다.
따라서 주어진 조건을 만족하는 순서쌍 (m,n)은 존재하지 않는다.
따라서 50 이하의 자연수 m, n에 대하여
$\left\{i^n+\left(\frac{1}{i}\right)^{2n}\right\}^m$이 음의 실수인 순서쌍 (m,n)의 개수는 150이다.