제 4 교시

직업탐구 영역(상업 정보 ①)

성명		수험 번호	

1. 다음은 환경 관련 제도의 시행에 따라 나타난 내용이다. 이 제도가 활성화될 경우 나타날 수 있는 현상으로 적절한 것을 〈보기〉에서 고른 것은?

> 탄소성적표지제도는 제품의 생산에서부터 유통 · 사용 등에 이르는 전 과정에서 발생하는 온실가스를 이산화탄소로 환산해 제품에 표시하는 것이다. 이 제도의 시행에 의해 6월 말 현재 탄소성적표지 인증을 받은 제품이 1,000개를 돌파하였으며, 이 제품 중 109개가 저탄소제품 인증을 받아 온실가스가 감축되는 효과를 얻었다.
>
> 저탄소상품 CO_2 국가가 인증한 온실가스 감축 제품입니다.
>
> — 한국환경산업기술원, 「2013년 7월 보도 자료」 —

〈보 기〉

ㄱ. 저탄소 제품 개발이 줄어들 것이다.
ㄴ. 지구 온난화 현상이 완화될 것이다.
ㄷ. 유해 폐기물의 이동이 감소될 것이다.
ㄹ. 교토 의정서의 실천 사례가 늘어날 것이다.

① ㄱ, ㄴ ② ㄱ, ㄷ ③ ㄴ, ㄷ
④ ㄴ, ㄹ ⑤ ㄷ, ㄹ

2. 다음은 시중 통화량을 조절하는 경제 정책과 관련된 설명이다. (가)에 들어갈 수 있는 내용으로 적절한 것을 〈보기〉에서 고른 것은? [3점]

> 2008년 금융 위기 이후, 각국은 경제 회생을 위한 양적 완화 정책을 실시하여 시중에 막대한 자금을 공급해 오고 있다. 이 정책으로 인해 단기적으로 실물 경기는 좋아질 수 있지만, 장기적으로는 과잉 유동성으로 인한 물가 상승 등을 유발시켜 경제를 왜곡시킬 수 있다.
>
> 전문가들은 경제가 회복세를 보이면 '출구 전략'을 실시하여 시중에 과잉 공급된 유동성을 회수할 것을 권고하고 있다. 이러한 과잉 유동성을 회수할 수 있는 한국은행의 통화신용 정책으로는 (가) 등이 있다.
>
> ※ 출구 전략(Exit Strategy): 경기 부양을 위해 막대한 자금을 공급하는 양적 완화 조치를 중단하면서 시중의 과잉 유동성을 회수하는 전략

〈보 기〉

ㄱ. 국 · 공채 매입
ㄴ. 기준 금리 인하
ㄷ. 지급 준비율 인상
ㄹ. 통화안정증권 발행

① ㄱ, ㄴ ② ㄱ, ㄷ ③ ㄴ, ㄷ
④ ㄴ, ㄹ ⑤ ㄷ, ㄹ

3. 다음 자료에서 설명하는 사회 보험의 종류로 옳은 것은?

> 근로자와 기업의 약속
>
>
>
> 이 보험은 사회 정책상의 목적을 달성하기 위해서 시행하는 보험의 하나로서, 근로자의 실직 시 실업 급여 지급, 근로자의 고용 안정 사업 및 직업 능력 개발 등을 위한 장려금 지원을 목적으로 한다.

① 국민 연금 ② 고용 보험
③ 국민 건강 보험 ④ 산업 정책 보험
⑤ 산업 재해 보상 보험

[4~5] 다음은 A 씨의 직업 선택 과정이다. 물음에 답하시오.

> • 수년간 무역 회사에서 통관 관련 업무를 총괄하던 A씨는 다음과 같은 탐색 과정을 통해 새로운 직업을 선택하였다.

1단계 자기 이해	A 씨는 진로 적성 검사를 통해 서비스 분야가 적성에 맞는다는 것을 인식함.
↓	
2단계 직장 탐색	• ㉮ 상장 주식이 매매되는 거래소 시장에서 증권을 매매하는 금융 기관 • 내·외국인 관광객에게 서비스를 제공하는 호텔
↓	
3단계 직업 선택	○○호텔에서 대외적인 영업상의 업무를 보조하는 지배인으로 취업함.

4. 위 자료의 ㉮에서 사용하는 경쟁 매매 방법에 대한 설명으로 옳은 것은?

① 적상법 또는 적하법이 사용된다.
② 관공서의 재산을 처분할 때 이용된다.
③ 서면으로 가격을 신청하는 입찰 매매 방식이다.
④ 다수의 구매자 중 구두나 손짓으로 최고 가격을 신청한 자에게 낙찰된다.
⑤ 다수의 판매자와 다수의 구매자 간 수요와 공급 법칙에 의해 결정된 균형 가격으로 거래된다.

5. 위 자료에서 ○○호텔에 취업한 A씨가 상업의 주체로서 갖는 특징에 대한 설명으로 옳은 것을 〈보기〉에서 고른 것은? [3점]

〈보 기〉

ㄱ. 자기 명의로 거래한다.
ㄴ. 특정한 상인에 종속된다.
ㄷ. 경업 금지 의무를 가진다.
ㄹ. 거래 쌍방으로부터 수수료를 받는다.

① ㄱ, ㄴ ② ㄱ, ㄷ ③ ㄴ, ㄷ
④ ㄴ, ㄹ ⑤ ㄷ, ㄹ

이 문제지에 관한 저작권은 한국교육과정평가원에 있습니다.

6. 다음 〔A국과 B국의 가계 금융 자산 구성 비중〕을 보고 ○○ 학생이 제출한 과제의 답으로 옳은 것은? [3점]

〔A국과 B국의 가계 금융 자산 구성 비중〕

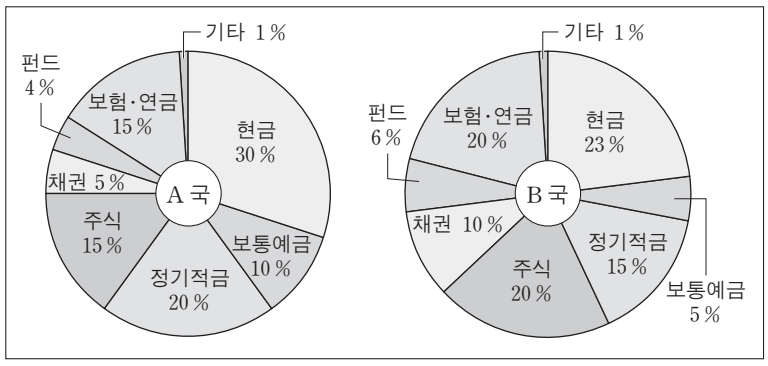

• ○○ 학생의 과제
A국의 가계 금융 자산 구성 비중이 B국의 가계 금융 자산 구성 비중에 비해 어떠한지를 분석하여 제출하시오.

① 요구불 예금의 금융 자산 비중이 낮다.
② 위험 및 노후 대비 목적의 금융 자산 비중이 높다.
③ 배당을 받을 수 있는 자본 증권의 투자 비중이 낮다.
④ 원금을 상환받을 수 있는 자본 증권의 투자 비중이 높다.
⑤ 기업이 직접 금융 방식으로 자금 조달 시 사용하는 금융 자산의 비중이 높다.

7. 다음 (가), (나)에 공통적으로 나타난 상업의 기능으로 적절한 것을 〈보기〉에서 고른 것은? [3점]

(가) 평안도와 함경도에서는 부유한 상인이나 큰 장사꾼이 되면 한곳에 앉아서 물건을 파는데, 남쪽으로는 일본과 통하고 북쪽으로는 청나라 연경과 통한다. 몇 년 동안 천하의 물건을 실어다 팔았다.
— 김종수 재인용, 『뿌리 깊은 한국사, 샘이 깊은 이야기』 —

(나) 함길도 오진(五鎭)의 선상(船商)은 자기 고장에서 풍부하게 생산되는 생선, 미역 등의 해산물을 싣고 남부 지방에 가서 면포로 바꾸어 북부 지역에 팔았다.
— 역사신문, 「조선 전기편」 —

〈보 기〉

ㄱ. 자금의 융통
ㄴ. 인적 불일치 해결
ㄷ. 장소적 불일치 해결
ㄹ. 위험으로 인한 손해 보상

① ㄱ, ㄴ ② ㄱ, ㄷ ③ ㄴ, ㄷ
④ ㄴ, ㄹ ⑤ ㄷ, ㄹ

8. 다음은 ○○(주)의 사내 전문가 선발 공고문이다. ○○(주)가 운영하고자 하는 조직의 형태로 적절한 것은?

사내 전문가 선발 공고

인력개발팀

• 근무지 : 베트남
• 업무 내용 : 베트남 풍력 발전소 건설 사업
• 파견 예정 기간 : 2013년 12월~2015년 12월
• 지원 자격 : 근무 경력 5년 이상의 발전소 건설 관련 전문가
• 운영 방안 : 발전소 건설에 필요한 전문가를 각 부서별로 추천받아 선발하여 별도의 업무 추진 조직을 구성하고 일시적으로 운영한 후 사업이 완료되면 기존 부서로 복귀

① 라인 조직 ② 기능식 조직
③ 네트워크 조직 ④ 사업부제 조직
⑤ 프로젝트 조직

9. 다음 기사에 나타난 전망을 토대로 우리나라의 △△기업이 취한 조치로 적절한 것을 〈보기〉에서 고른 것은? (단, 환율만 고려하며, 현 환율 추세의 지속 및 환전을 전제로 한다.) [3점]

일본은 경제 회복을 위해 물가 상승률 목표치를 종전의 1%에서 2%로 상향 조정하고 무제한적으로 통화를 공급하는 정책을 펴고 있다. 전문가들은 일본의 이러한 정책이 원화 대비 엔화의 가치 하락을 상당 기간 이끌 것으로 전망하고 있다.
— ○○신문, 2012년 12월 16일 자 —

〈보 기〉

ㄱ. 엔화 예금을 조기에 인출하였다.
ㄴ. 엔화 표시 외채의 상환을 연기하였다.
ㄷ. 수입 상품의 엔화 결제 대금을 조기에 지급하였다.
ㄹ. 일본에 소재한 당사 소유의 건물을 엔화로 매각하는 시기를 연기하였다.

① ㄱ, ㄴ ② ㄱ, ㄷ ③ ㄴ, ㄷ ④ ㄴ, ㄹ ⑤ ㄷ, ㄹ

10. 다음은 상품 구매와 관련된 질문과 답변이다. 답변에서 제시한 결제 관련 서비스 이용 시 나타날 수 있는 현상으로 가장 적절한 것은?

Q&A

Q ○○인터넷 쇼핑몰에서 IT 기기 상품을 구매하기로 결심하였으나 상품을 받기 전에 대금을 지급해야 한다는 사실이 부담스러워 거래가 망설여 집니다. 어떻게 해야 할까요?

A 공신력 있는 제3자가 구매자의 결제 대금을 예치하고 있다가 상품 배송이 완료된 후, 구매자의 확인을 거쳐 그 대금을 통신 판매업자에게 지급하는 결제 서비스가 있습니다. 이 서비스를 제공하고 있는 인터넷 쇼핑몰을 추천합니다.

① 결제 수단이 신용 카드로 단일화될 것이다.
② 인터넷 쇼핑몰 거래에 대한 신뢰도가 낮아질 것이다.
③ 판매자는 상품 배송 전에 대금을 받을 수 있을 것이다.
④ 구매자는 상품 수령에 대한 불안감을 줄일 수 있을 것이다.
⑤ 구매자는 상품을 받지 못하고 결제 대금을 떼이는 사례가 늘어날 것이다.

이 문제지에 관한 저작권은 한국교육과정평가원에 있습니다.

11. 다음은 무역업을 하고자 하는 A씨의 상황과 B씨의 컨설팅 내용이다. B씨가 제시한 무역의 형태로 적절한 것은?

> • A씨의 상황
> – 제품 생산 능력 및 기술이 없다.
> – 시장과 거래처에 대한 정보를 많이 보유하고 있다.
> • B씨의 컨설팅 내용
> – 외국에서 수입한 상품을 가공하지 않고 원형 그대로 제3국에 수출하여 수입 대금과 수출 대금의 차액 획득을 목적으로 하는 간접 무역 방식을 A씨에게 제시하였다.

① 연계 무역 ② 중개 무역 ③ 중계 무역
④ 통과 무역 ⑤ 스위치 무역

[12~13] 다음은 한국의 수출상 A기업과 미국의 수입상 B기업의 매매 계약 체결 과정 및 내용을 약식으로 나타낸 것이다. 물음에 답하시오. (단, 가격 조건은 인코텀즈 2000에 의한다.)

• A기업의 판매 청약 조건

매매 조건	내용
품질 결정 방법	GMQ
수량	200 상자
가격 조건	FOB BUSAN US$ 50.00
대금 결제 조건	D/P

• B기업의 수정 청약 조건

매매 조건	내용
품질 결정 방법	FAQ
수량	200 kg
가격 조건	CIF NEW YORK US$ 70.00
대금 결제 조건	D/A

• A기업은 B기업의 수정 청약 조건을 승낙하고 매매 계약을 체결함.

12. 위 자료의 판매 청약 조건에서 수정 청약 조건으로 변경됨에 따라 나타나는 현상으로 옳은 것은? [3점]

① 해상 보험료 부담 주체는 A기업에서 B기업으로 변경된다.
② 해상 운송비 부담 주체는 B기업에서 A기업으로 변경된다.
③ 계약 물품에 대한 위험 분기점이 부산항에서 뉴욕항으로 변경된다.
④ 발행되는 환어음은 기한부 환어음에서 일람 출급 환어음으로 변경된다.
⑤ 추심 의뢰 은행에 추심을 의뢰하는 당사자는 A기업에서 B기업으로 변경된다.

13. 위 자료에서 체결된 매매 계약 조건에 대한 설명으로 옳은 것을 〈보기〉에서 고른 것은?

〈보 기〉
ㄱ. 계량 단위 계산법이 활용된다.
ㄴ. 표준품에 의해 품질이 결정된다.
ㄷ. 송금 방식에 의해 대금이 결제된다.
ㄹ. 가격 조건은 도착지 인도 조건에 속한다.

① ㄱ, ㄴ ② ㄱ, ㄷ ③ ㄴ, ㄷ
④ ㄴ, ㄹ ⑤ ㄷ, ㄹ

14. 다음은 A~D국가 간 경제 협정 체결 상태를 나타낸 것이다. (가), (나)에서 나타날 수 있는 현상으로 적절한 것을 〈보기〉에서 고른 것은? [3점]

• 세계 각국은 교역량 증대를 통한 상호 간의 이익을 얻기 위해 경제 통합을 추진하고 있다.

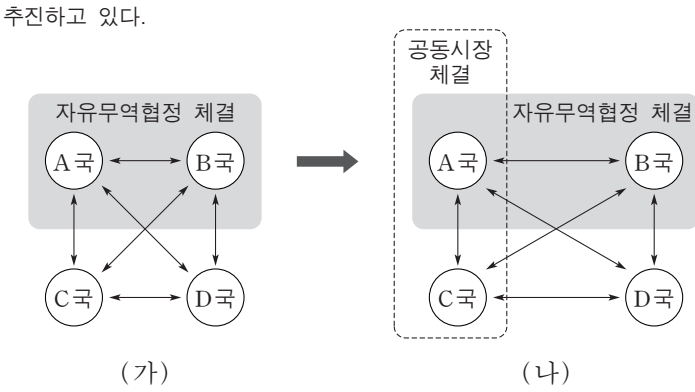

(가) (나)

※ ⟷는 무역의 흐름을 나타냄.

〈보 기〉
ㄱ. (가)에서 A국은 B국과 함께 D국에 대해 공동 관세율을 적용할 것이다.
ㄴ. (가)에서 A국과 B국 간 협정 대상 품목의 관세가 인하 및 철폐될 것이다.
ㄷ. (가)에서 (나)로 변화되었을 때 A, B, C국은 공동 화폐를 사용할 것이다.
ㄹ. (가)에서 (나)로 변화되었을 때 A국과 C국 간 생산 요소의 이동이 자유로워질 것이다.

① ㄱ, ㄴ ② ㄱ, ㄷ ③ ㄴ, ㄷ
④ ㄴ, ㄹ ⑤ ㄷ, ㄹ

15. 다음 자료를 통해 알 수 있는 상거래 방식의 일반적인 특징으로 적절한 것만을 〈보기〉에서 있는 대로 고른 것은?

인터넷 쇼핑 월 평균 이용자 수 추이
-모바일 기반 인터넷 쇼핑앱-

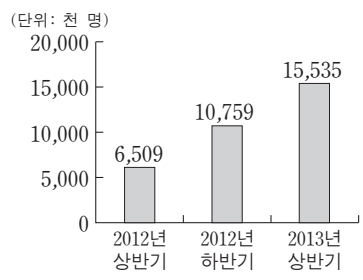

대한상공회의소가 최근 발표한 '모바일·인터넷 쇼핑 소비자 동향 조사'에 따르면, 인터넷 쇼핑 월 평균 이용자 수는 모바일 기반 인터넷 쇼핑앱을 중심으로 크게 증가한 것으로 나타났다.

– 대한상공회의소, 「2013년 8월 보도 자료」 –

〈보 기〉
ㄱ. 거래의 시간적 제약이 없다.
ㄴ. 유형의 점포에서 주로 매매가 이루어진다.
ㄷ. 면대면 방식에 의해 촉진 활동이 이루어진다.

① ㄱ ② ㄷ ③ ㄱ, ㄴ
④ ㄴ, ㄷ ⑤ ㄱ, ㄴ, ㄷ

이 문제지에 관한 저작권은 한국교육과정평가원에 있습니다.

16. 그림은 ○○기업의 부장과 사장의 대화 장면이다. 부장이 제안한 방안으로 변경한 후의 유통 경로 정책으로 적절한 것은?

① 분산 기관 축소 정책 ② 수집 기관 확대 정책
③ 개방적 유통 경로 정책 ④ 전속적 유통 경로 정책
⑤ 선택적 유통 경로 정책

17. 다음 기사에 나타난 △△자동차(주)의 국제 경영 형태에 대한 설명으로 적절한 것은? [3점]

> 국내의 △△자동차(주)는 지난 2002년 "5대양 6대주에 △△자동차 공장을 건설하겠다."라고 선언했다. 이에 따라 세계 4위 자동차 시장으로 급부상한 브라질 시장을 잡기 위해 막대한 자금을 투입하여 브라질에 생산 공장을 완공하였다.
>
> — ○○신문, 2012년 11월 12일 자 —

① OEM 수출 방식이다.
② 해외 직접 투자 방식에 해당한다.
③ 구상 무역을 통한 외화 획득을 목적으로 한다.
④ 외국 기업의 경영을 대행해 주고 그 대가를 받는다.
⑤ 턴키 계약 방식과 동일한 방법으로 투자금을 회수한다.

18. 다음은 ○○ 학생이 작성한 수행 평가 과제 보고서의 일부이다. (가)에 해당하는 지식 재산권에 대한 설명으로 옳은 것은?

> (가) 의 정의 및 성립 요건
>
> • 정의
> 산업적 물품 또는 제품의 독창적이고 장식적인 외관 형상의 보호를 위해 등록을 통하여 허용된 권리이다.
>
> • 성립 요건
> 창작된 도안이 적용된 물품을 보호하는 물품성, 인간의 육안으로 식별할 수 있는 것을 대상으로 하는 시각성, 미감을 일으키는 심미성, 그리고 형상, 모양, 색채 또는 이들의 결합을 말하는 형태성이 있다.

① 자사 상표에 대한 독점적 권리이다.
② 물품 등의 디자인에 대한 독점적 권리이다.
③ 물품의 최초 발명에 대한 독점적 권리이다.
④ 학문 분야의 저작물에 대한 독점적 권리이다.
⑤ 물품 구조의 실용적 고안에 대한 독점적 권리이다.

19. 다음은 유통 정보 시스템의 도입을 위한 분석 과정이다. (가)에 들어갈 수 있는 내용으로 적절한 것만을 〈보기〉에서 있는 대로 고른 것은? [3점]

> • 유통 정보 시스템의 도입 배경
>
> (가)
>
> • 유통 정보 시스템의 도입
>
> 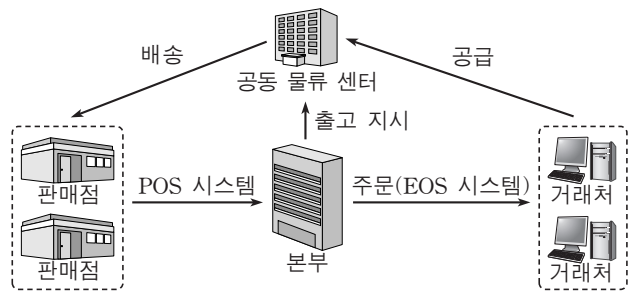
>
>
> • 유통 정보 시스템의 도입에 따른 기대 효과
> — 상품 적기 발주를 통한 품절 방지
> — 판매점과 본부와의 효율적 정보 관리
> — 판매점의 판매 관련 활동의 효율성 제고

〈보 기〉

ㄱ. 할인 판매 효과의 측정이 어려움.
ㄴ. 상품별로 판매된 시간의 측정이 어려움.
ㄷ. 주문 처리와 재고 관리가 원활하게 이루어지지 않음.

① ㄱ ② ㄷ ③ ㄱ, ㄴ ④ ㄴ, ㄷ ⑤ ㄱ, ㄴ, ㄷ

20. 다음은 ○○국의 [2013년 8월 국제수지]와 [2013년 9월 국제수지 관련 거래]이다. 8월과 비교하였을 때, 9월의 국제수지에 대한 설명으로 옳은 것은? (단, 2013년 9월 국제수지 관련 거래는 제시된 자료 외에는 없는 것으로 가정한다.) [3점]

[2013년 8월 국제수지]

(단위 : 억 달러)

구분	금액
경상수지	10
상품수지	6
서비스수지	5
소득수지	−3
경상이전수지	2
자본수지	3
투자수지	4
기타자본수지	−1

※ (+)는 흑자(유입초), (−)는 적자(유출초)

[2013년 9월 국제수지 관련 거래]

• 상품 수출액 : 10억 달러
• 특허권 사용료 수취액 : 3억 달러
• 저작권 취득에 따른 지급액 : 2억 달러
• 해외 무상 원조 지급액 : 4억 달러
• 외국인의 국내 증권 투자 유입액 : 7억 달러
• 국내의 외국인 임금의 본국 송금액 : 5억 달러

* 현재 소득수지는 본원소득수지, 경상이전수지는 이전소득수지, 자본수지는 자본·금융계정, 투자수지는 금융계정, 기타자본수지는 자본수지로 변경되었다.

① 상품수지는 적자로 전환되었다.
② 서비스수지는 적자로 전환되었다.
③ 투자수지는 흑자 폭이 축소되었다.
④ 경상이전수지는 흑자 폭이 축소되었다.
⑤ 기타자본수지는 적자 폭이 확대되었다.

> * 확인 사항
> ○ 답안지의 해당란에 필요한 내용을 정확히 기입(표기)했는지 확인하시오.

이 문제지에 관한 저작권은 한국교육과정평가원에 있습니다.